REPRODUCCIÓN DE LAS PLANTAS

Reproducción asexual

1º Arrastra cada tipo de reproducción asexual según la imagen

Esporas | Bulbo | Estolones | Tubérculo

A



B



C

D

2º Arrastra cada rótulo al lugar correspondiente según las partes de la flor.

Pétalo | Pistilo | Estambre | Sépalo

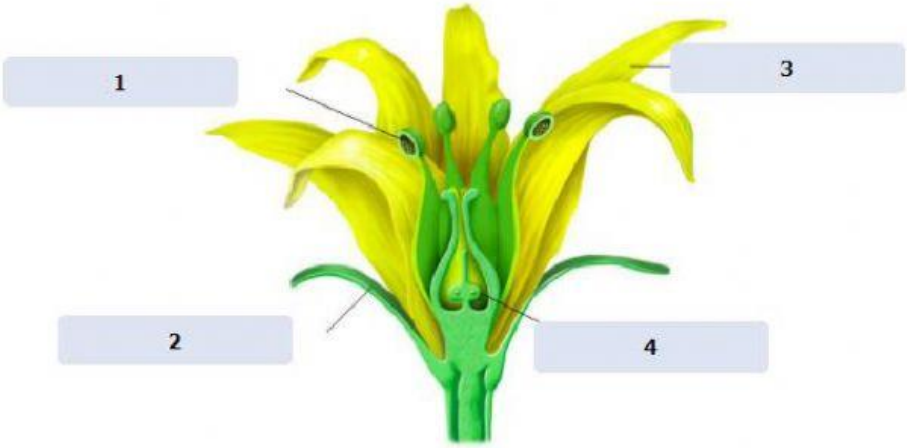

3º Completa el siguiente texto arrastrando las palabras a su lugar.

estambres

unen

gametos

reproductores

masculinos

flores

pistilo

Para la reproducción sexual las plantas cuentan con _____ femeninos y _____, que se _____ para formar una nueva planta.

Las _____ son los órganos _____ de muchas plantas.

El _____ es la parte femenina de la flor, los _____ son la parte masculina.

Completa el proceso de reproducción sexual de las plantas con las palabras del recuadro.
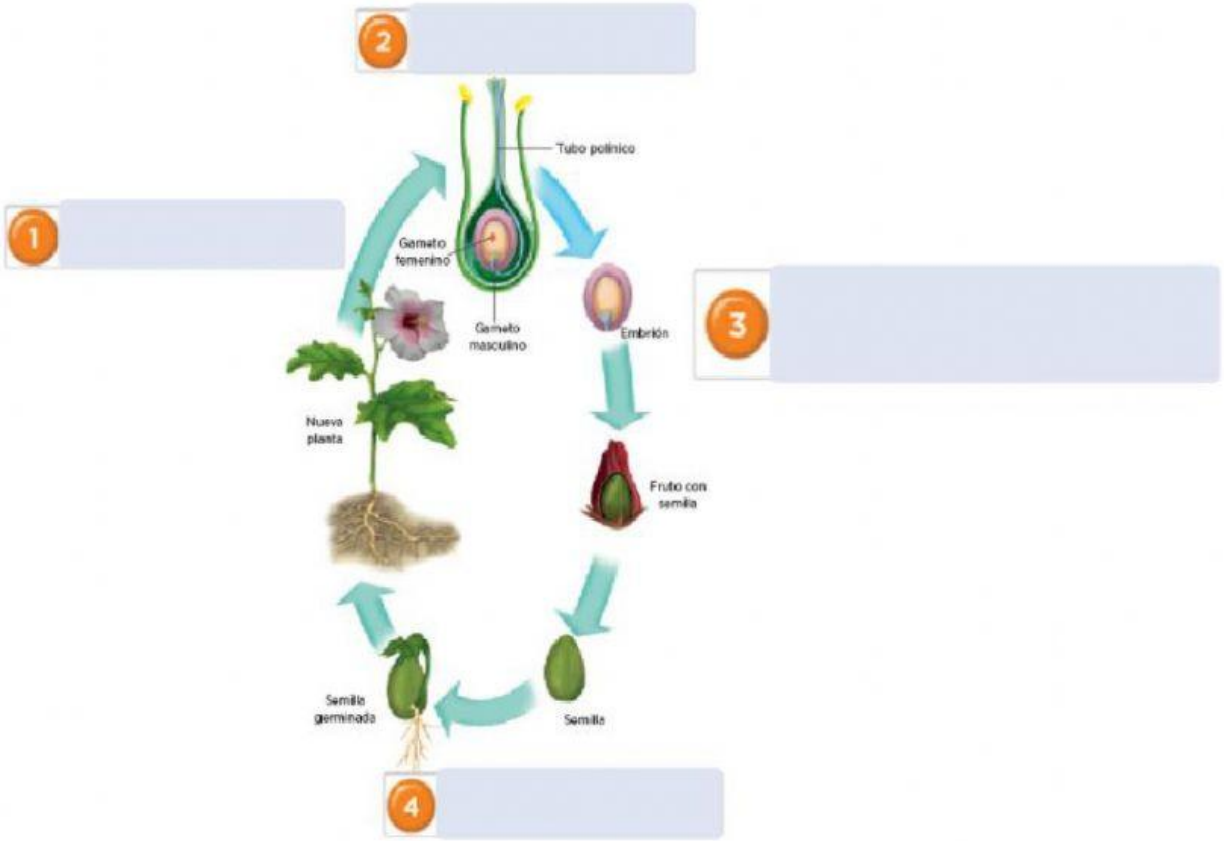
Germinación | Fecundación | Polinización | Formación del fruto y semilla