COLEGIO CAMILO HENRÍQUEZ
DIRECCIÓN ACADÉMICA BÁSICA

PROFESORAS: VALENTINA GIACONI-LUCÍA CÁRCAMO
NIVEL: PRIMEROS BÁSICOS A – B

FIGURAS 3D

1.- Une la imagen con el nombre de la figura 3D que corresponde.

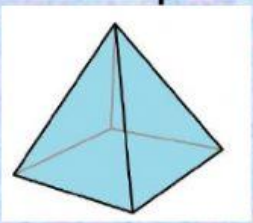

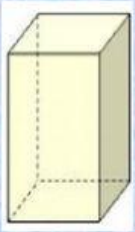

ESFERA

PIRÁMIDE

CILINDRO

PRISMA

2.- Escoge la descripción correcta para cada figura 3D.

Tengo dos caras triangulares.

Tengo una cara curva y termino en punta.

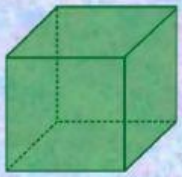

Todas mis caras son cuadradas y son iguales.

Tengo 4 caras cuadradas y 4 caras rectangulares.

3.- Une cada parte señalada de la figura 3D con su nombre que le corresponde.

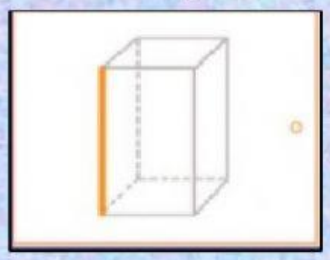

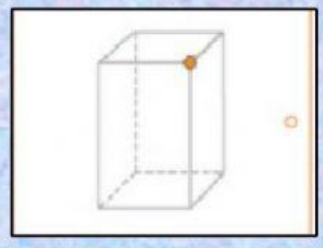

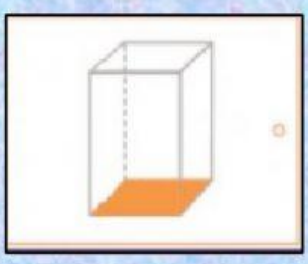

CARA

ARISTA

VÉRTICE
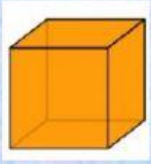
4.- Relaciona las figuras 3D con un objeto del entorno arrastrándolas para emparejarlas.