evaluación sumativa

Matemática
Unidad 3: Más números
Primer año básico B

1 ¿Cuántas naranjas hay?

A. 10
B. 01

2 Si tengo y me como 6.
¿Cuántas me quedan?

A. 10
B. 6

3 ¿Cuántas estrellas hay?

A. 12
B. 13

4 ¿Cuántos lápices hay?

A. Quince
B. Dieciséis

5 Relaciona los números con su descomposición, arrastrando y pegando.

18	14	19	13	16

1 D + 3 U | 1 D + 6 U | 1 D + 8 U | 1 D + 4 U | 1 D + 9 U

6 ¿Qué números completa la descomposición?

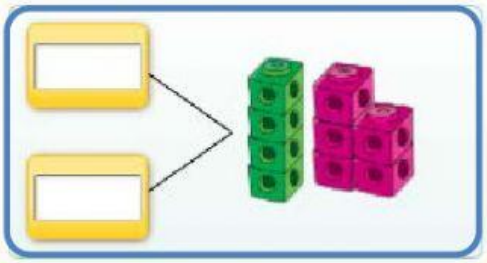

A. 4 y 5
B. 5 y 6

7 ¿Qué números completa la descomposición?

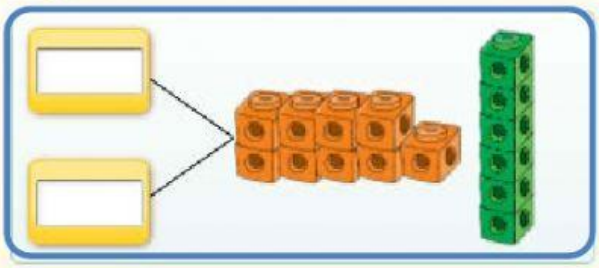

A. 10 y 6
B. 9 y 6

8 ¿Qué operación se representa en la cinta numerada?

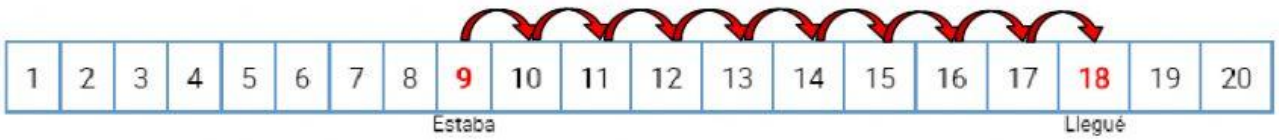

A. 9 + 9 = 18
B. 18 – 9 = 9

9 ¿Qué operación se representa en la cinta numerada?

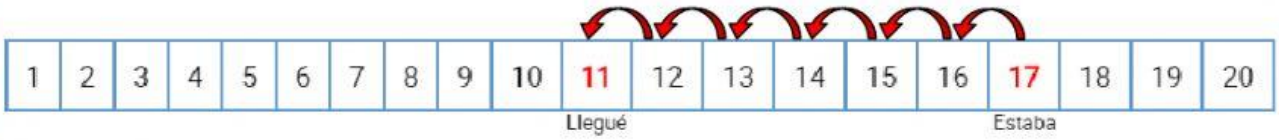

A. 11 + 6 = 17

B. 17 – 6 = 11

10 Une la imagen con la operación que le corresponde.

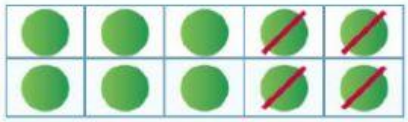

12 + 6

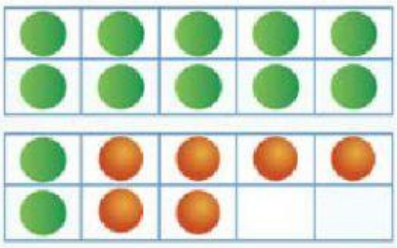

20 - 19

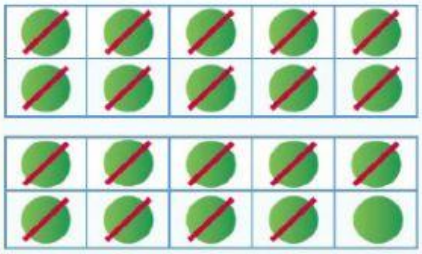

10 - 4