III. కృత్యపత్రం : Name

1. కింది త్రిమితీయ వస్తువు చూడండి. ఆ వస్తువుకు చెందిన మూలలు, ముఖాలు, అంచులు ఏవో గుర్తించండి.

మూలలు =

ముఖాలు =

అంచులు =

2. కింది తెరిచి ఉన్న డబ్బాను చూడండి. దీనికి చెందిన వల రూపాన్ని కింది వాటిలో గుర్తించండి.



సరియైన 2 సమాధానములను క్లిక్ చేయండి



3. కింది వల రూపం గమనించండి. ఇందులో ఎన్ని ముఖాలు ఉన్నాయో గీయండి.

సరియైన సమాధానమును క్లిక్ చేయండి

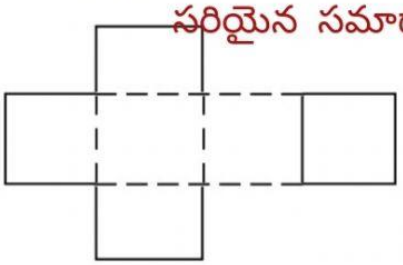

4 5 6

4. అగ్గిపెట్టెలోని లోపలి పెట్టె భాగాన్ని తీయండి. దానిని తెరిచినప్పుడు ఏర్పడు వల రూపాన్ని గీయండి.

5. ఈ ఆకారానికి గల వల రూపం కింద వాటిలో గుర్తించండి.

సరియైన సమాధానమును క్లిక్ చేయండి
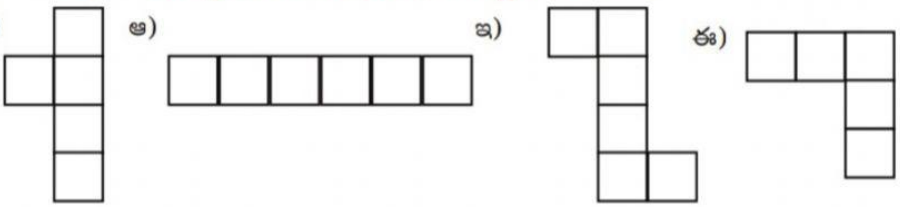
అ) ఆ) ఇ) ఈ)