Observa el mapa y responde las preguntas.

1. **El departamento de Colombia que limita por el norte con Cauca; por el oriente, con Putumayo; por el sur, con el Ecuador; y por el occidente con el Océano Pacífico es:**

a) Casanare
b) Guajira
c) Nariño
d) Santander

2. **¿Cuáles de los siguientes departamentos están ubicados en la parte sur del país?**

A. Amazonas y Putumayo.
B. Caquetá y Guajira.
C. Chocó y Nariño.
C. Putumayo y Vaupés.

Lee el siguiente texto y responde la pregunta.

Los municipios en Colombia hacen parte de la división espacial del país, como unidades microterritoriales que conforman las regiones y los respectivos departamentos. Con jurisdicciones dependientes del poder del Estado, los municipios han buscado descentralizar las funciones y los alcaldes administrativos del gobierno nacional.

Con la creación de la Federación Colombiana de Municipios desde el año 1989, los municipios de todo el país han buscado agremiarse con la intención fortalece su autonomía política y promover de esta forma la gestión de las nuevas entidades territoriales.

3. **Según lo anterior, los municipios de Colombia pueden ser considerados como:**

a. Las divisiones político-administrativas más reducidas y dependientes de Colombia, que buscan informar el tipo de inversión y aportes públicos que genera el Estado.
b. Entidades con autonomía política que han buscado que el Estado centralice sus funciones y competencias.

c. Las unidades más básicas, elementales y fundamentales del ordenamiento territorial colombiano.
d. Como unidades político-administrativas que le disputan el poder al Estado agrupándose en la Federación Colombiana de Municipios.

4. **Los departamentos deben proveer los servicios de educación, comunicaciones y transportes, y la construcción de obras públicas. También pueden suprimir o crear nuevos municipios en su interior, de acuerdo con sus necesidades. Lo anterior indica que entre las funciones de los gobernadores de departamentos están:**

a) autorizar a los alcaldes municipales para realizar contratos.
b) reglamentarse de acuerdo con sus propios usos y costumbres.
c) elegir a los funcionarios encargados del control político.
d) impulsar las políticas de desarrollo y administrar los recursos.

Observa el mapa de la región de la Orinoquía y responde.

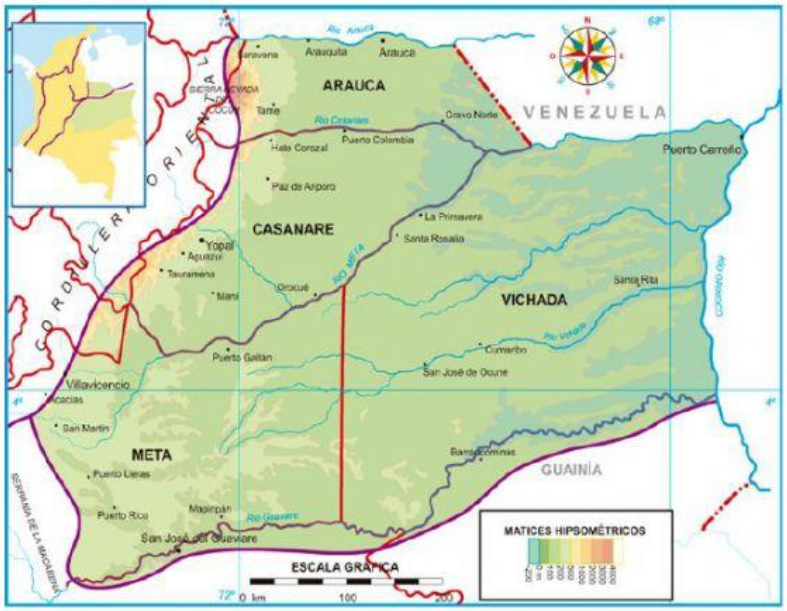

5. **¿En cuáles departamentos se encuentran las tierras con menor altura sobre el nivel del mar?**
a. Casanare, Vichada y Arauca.
b. Casanare, Guaviare y Meta.
c. Guainía, Meta y Vichada.

d. Guaviare, Saravena y Yopal.

6. **¿Qué ríos de la región son límites naturales?**
   a. Río Arauca y Orinoco.
   b. Río Guaviare y Arauca.
   c. Río Casanare y Meta.
   d. Río Orinoco y Vichada.

7. **¿Por qué crees que los territorios que habitan los indígenas de la región de la Orinoquia son escenarios de fuertes conflictos con otros pobladores?**

Rta:

_____

8. **Completa las siguientes oraciones con las características de la región de la Orinoquia.**
   a) Los principales yacimientos de petróleo se encuentran en la región de la _____
   b) Algunas expresiones de los llaneros son el _____ y el _____

9. **Observa el mapa de la región de la Amazonía. Luego, completa con las palabras correctas el enunciado.**

• La región de la Amazonia limita al norte con la Orinoquia; al sur con los ríos Putumayo y [ ] que conforman el límite natural entre Colombia, Ecuador y [ ]; al occidente con la cordillera Oriental y al oriente con [ ] y Venezuela.

• En los departamentos de Caquetá, [ ] y la parte sur del [ ], se ubican las tierras con mayor altura sobre el nivel del mar de la región de la Amazonia.

• Los ríos Amazonas, Caquetá y [ ], se consideran los más largos de la región de la Amazonia.

10. **Encierra en un círculo las actividades que se desarrollen en la región de la Amazonía y también las que pertenezcan a la región Orinoquía.**

11. **La región de la Amazonia cuenta con una gran diversidad de ecosistemas y es considerada una de las zonas del país con mayor variedad de especies animales y vegetales. Esta biodiversidad se debe fundamentalmente a:**
    A. la convivencia de especies en ecosistemas complejos.
    B. la poca intervención humana con fines económicos.
    C. la protección que los aborígenes han practicado.
    D. las condiciones físicas y bioclimáticas de la zona.

Escribe en cada círculo, la letra que corresponda a cada uno de los siguientes lugares.

A. **Macizo colombiano.**
B. **Río Meta**
C. **Serranía de la Macarena**
D. **Río Amazonas**
E. **Paramo de Sumapaz**
F. **Cañón del Chicamocha**
G. **Río Vaupés**
H. **Nevado del Huila**

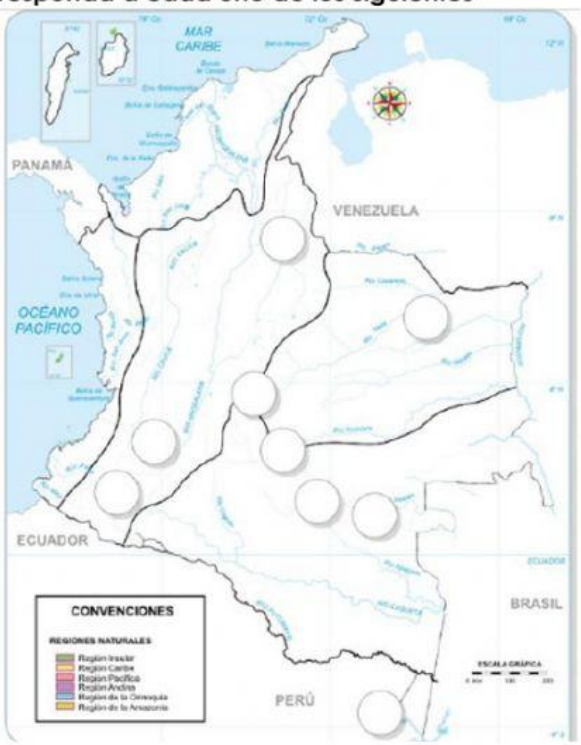

Observa anterior el mapa de la región Andina. Luego, lee la pregunta y selecciona la opción correcta.

12. **¿Cuál es el tipo de relieve que predomina en la región Andina?**

a) El valle interandino del río Cauca.

b) El valle interandino del río Magdalena.

c) Las cordilleras Central, Occidental y Oriental.

d) Los piedemontes, páramos y nevados.

13. **Algunos de los departamentos por los que cruza la cordillera Occidental son:**

a) Antioquia, Caldas, Risaralda y Santander.

b) Antioquia, Nariño, Risaralda y Valle del Cauca.

c) Boyacá, Cauca, Cundinamarca y Tolima.

d) Nariño, Norte de Santander, Quindío y Tolima.

14. **¿Cuáles crees que son las razones por las que en la región Andina se han desarrollado los núcleos urbanos más importantes del país?**

Rta.

15. **¿Qué ventajas económicas trae para la región Andina la variedad de biomas y pisos térmicos? ¿por qué?**

Rta.

16. **Si bien la economía de esta región es muy variada por contar con un gran número de industrias y recursos mineros su economía también se ve influenciada por su variedad climática y que gracias a sus pisos térmicos se pueden dar gran cantidad de cultivos. De lo anterior expresado podemos afirmar que las características de Bogotá, Medellín y Cali es que son:**
   A. Ciudades de la amazonia
   B. ciudades del caribe
   C. ciudades extranjeras
   D. ciudades industrializadas

Observa el mapa de la región Caribe. Luego, lee el enunciado y selecciona la opción correcta.

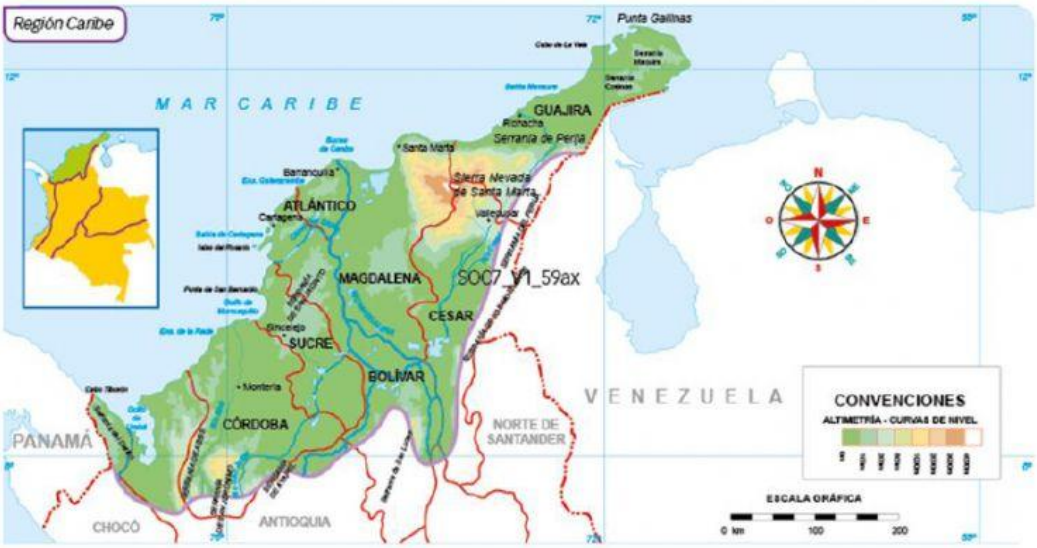

17. **El macizo montañoso más sobresaliente de la región Caribe es la:**
   a) Península de la Guajira.
   b) Serranía del Darién.
   c) Serranía del Perijá.
   d) Sierra Nevada de Santa Marta.

18. **¿Cuáles son los principales ríos que surcan la región?**
   a) Río Atrato, Cauca y San Jorge.
   b) Río Casanare, César y Meta.
   c) Río Cauca, César y Magdalena.
   d) Río Cauca, Magdalena y Sinú.

19. **La región caribe en su mayor parte del territorio se caracteriza por ser plana y por eso se conoce como la llanura del caribe, pero en ella encontramos la presencia de la sierra nevada de Santa Marta, la presencia de este sistema montañoso nos indica que en la región caribe también encontramos:**
    a) La presencia de todos los pisos térmicos
    b) La presencia de todos los puertos de Colombia
    c) La presencia del río Amazonas
    d) La semejanza a la región amazónica

Escribe V o F según corresponda en cada afirmación. Luego, justifica en la parte de abajo solo las que son falsas.

Las regiones de Colombia		
Afirmación	**Falso**	**Verdadero**
El relieve de la región Orinoquia se caracteriza por sus numerosas cadenas montañosas.		
La región Pacífica, Atlántica e Insular se agrupan dentro de las regiones costeras de Colombia.		
La región Amazónica cuenta con una gran biodiversidad y por sus amplias extensiones de selva es también conocida como el pulmón del mundo.		
La región Andina es la menos poblada de todas las regiones naturales de Colombia.		

20. **Completa el cuadro, con la información referente al municipio o a la ciudad en donde vives.**

El municipio o ciudad en donde vives es	
Pertenece al departamento de	
Su número de habitantes es	
Su superficie es	
Se encuentra en la región	
Sus principales actividades económicas son	
Sus rasgos culturales más destacados son	
Se pueden identificar las siguientes problemáticas	
Las posibles soluciones pueden ser	

21. **¿En cuál ciudad de la región se ubica el principal puerto marítimo de Colombia sobre el Océano Pacífico?**
   a) Buenaventura
   b) Pasto
   c) Quibdó
   d) Tumaco

22. **¿Cuál es la forma de relieve más elevada de la región?**
   a) Bahía Solano.
   b) Valle del río Patía.
   c) Selva del Darién.
   d) Serranía del Baudó.

23. **¿Por qué la región del Pacífico tiene una ubicación privilegiada en el país?**
   a) Porque contiene numerosos golfos y bahías que facilitan el comercio exterior.
   b) Porque contiene formaciones de relieve elevadas como la Serranía del Baudó.
   c) Porque la atraviesan grandes ríos navegables como el Atrato, Baudó y San Juan.
   d) Porque tiene salida al mar Caribe por el golfo de Urabá y al Océano Pacífico.

24. **En la región del Pacífico se destacan los recursos:**
   a) hídricos de agua dulce como el río Atrato.
   b) minerales como el platino, el oro y la plata.
   c) mineros representados en sal, gas y carbón.
   d) petrolíferos que permiten la actividad extractiva.

Lee el siguiente fragmento sobre la región del Pacífico. Luego, lee la pregunta y selecciona las opciones correctas.

"Las condiciones sanitarias son críticas. Las coberturas de acueducto en los municipios (48%) y alcantarillado (10%) se encuentran muy por debajo de los promedios nacionales (82% y 50% respectivamente)". La oferta de atención en salud es muy baja: en el litoral existe una tercera parte de las enfermeras, una quinta parte de los médicos y una octava parte de los odontólogos con que cuenta el resto del país. Los 10 hospitales y los 137 centros de salud del litoral están mal dotados".

25. **¿Por qué la región del Pacífico tiene índices de salubridad por debajo del promedio nacional?**
    a) Porque el gobierno nacional no ha invertido recursos suficientes en la región.
    b) Porque es considerada una de las regiones con mayor población de Colombia.
    c) Porque es una de las regiones más violentas por la acción de grupos armados.
    d) Porque la infraestructura y la cobertura de servicios esenciales es precaria.

Ubica correctamente las islas de acuerdo al tipo de clasificación geográfica.

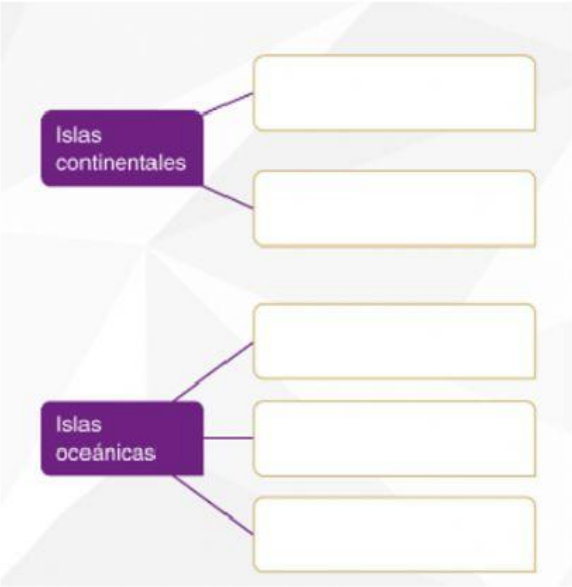

Providencia y Santa Catalina

Malpelo

Gorgona y Gorgonilla

San Bernardo

San Andrés