Доповни записи за малюнками.

2 + □ = □

4 – □ = □

□ + □ = □

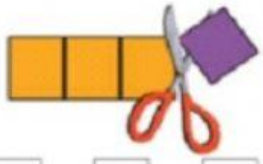

□ – □ = □

Порівняй кількість крапочок зліва і справа на кісточках доміно. Зроби відповідні записи.

5 > 1

□○□



□○□

□○□



□○□

Обери для кожного малюнка відповідний запис.

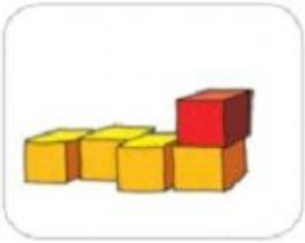

5 – 2

4 + 1

5 – 4