Nombre:

Fecha:

CIRCUNFERENCIA Y CÍRCULO

ELEMENTOS

Mira atentamente el vídeo.

Ponles nombre.

Radio. Diámetro. Círculo. Centro. Circunferencia.

	Es una **línea curva cerrada** en la que todos sus puntos están a la misma distancia de un punto llamado centro.
	Es una **figura plana** formada por una circunferencia y su interior.
	Es un **punto** que está a la misma distancia de cada punto de la circunferencia.
	Es el **segmento** que une el centro con un punto de la circunferencia.
	Es el **segmento** que une dos puntos de la circunferencia pasando por el centro.

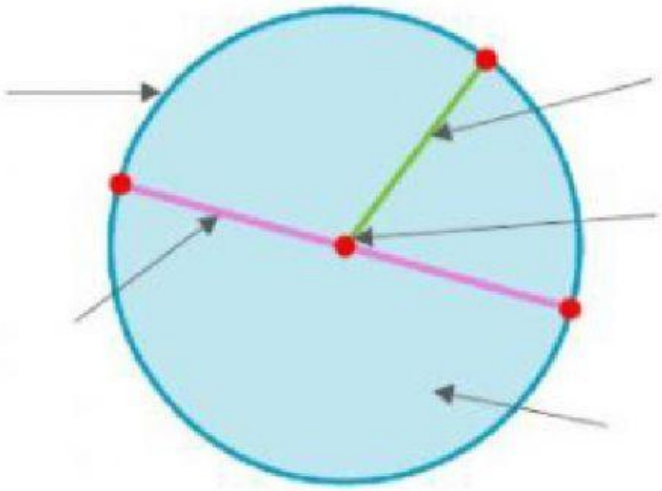

Circunferencia

Círculo

Radio

Centro

Diámetro

- ¿Cuál de estos objetos es un círculo?

- ¿Cuál de estos objetos es una circunferencia?

- Cuenta y escribe cuántas circunferencias y círculos forman cada figura.

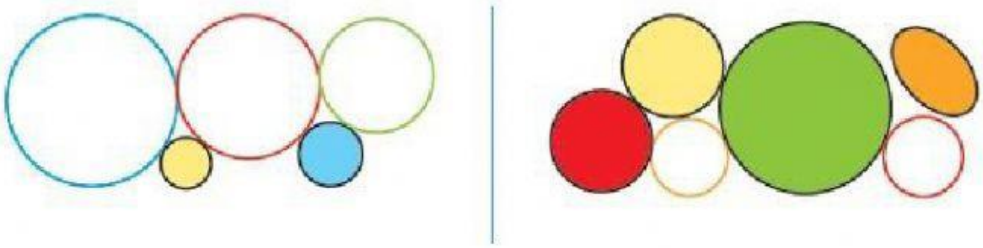

Circunferencias ➢ Circunferencias ➢

Círculo ➢ Círculo ➢

- Une cada círculo con su circunferencia

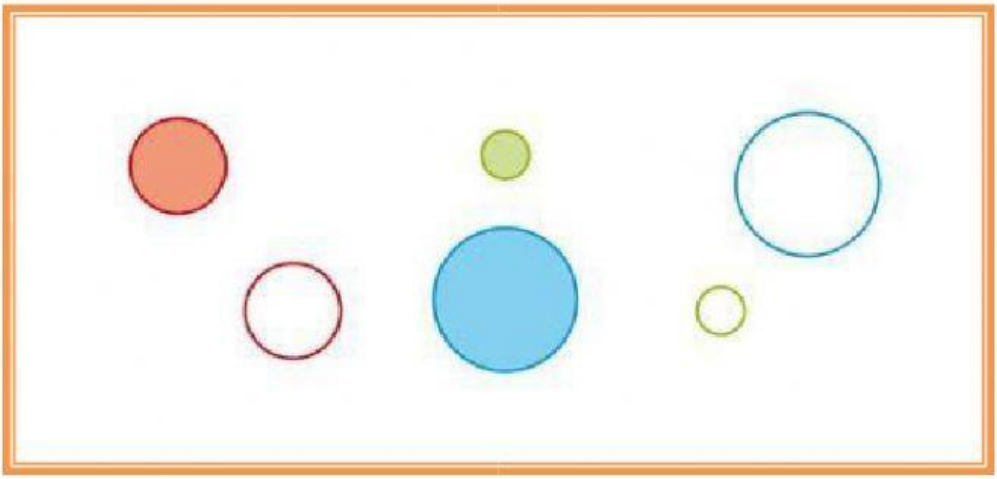
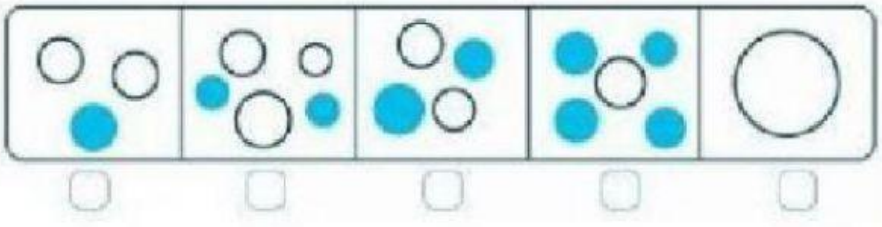
- ¿Dónde hay más circunferencias?