اسم التلميذ/ة:----------

الصف:----------

اسم المدرسة:----------

مهمة في موضوع الهندسة للصفوف الثانية

التلاميذ الأعزاء،

- أمامكم مهمة في موضوع الحساب للصف الثاني .
- الوقت المحدد للمهمة 30 دقيقة .
- حلوا جميع التمارين وأجيبوا عن جميع الاسئلة .
- في قسم من الأسئلة علمت كلمات مهمة . انتبهوا لهذه الكلمات.

السؤال (1)

اضغط على الأجابة الصحيحة حسب الشكل الذي أمامك .

أ.

انعكاس | ازاحة

ب.



ازاحة | انعكاس

ج.

انعكاس | ازاحة

السؤال (2)

اسحبوا شكل الوجه على الشكل المناسب لتحصل على حركة ازاحة في المجموعات التالية .

أ.

السؤال (3)

وصلوا بين الشكلين التي يوجد بينهم أزاحة .

أ.

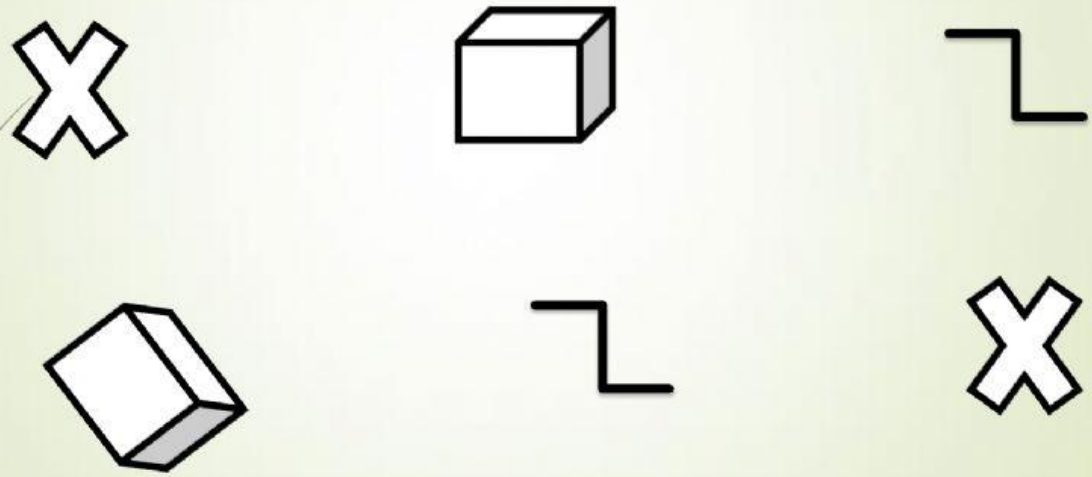

السؤال (4)

في كل رسمة يوجد زوج واحد من شكلين نتجا عن ازاحة ، لنجر الاشكال المناسبة لنحصل على حركة ازاحة في المربع .

أ.



ب.

ج.

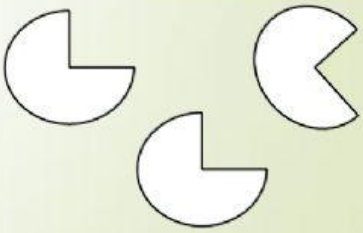

د.

السؤال (5)

أي مجموعة من المجموعات التالية تحتوي على حركة ازاحة 1أو 2 أو 3 والأجابة بالفراغ .

1.

2. 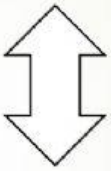

3. 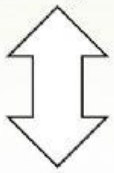

_____

السؤال (6)

في كل مربع من المربعات الاتية ، جدوا شكلين توجد بينهما ازاحة واضغطوا على الشكلين .

أ.

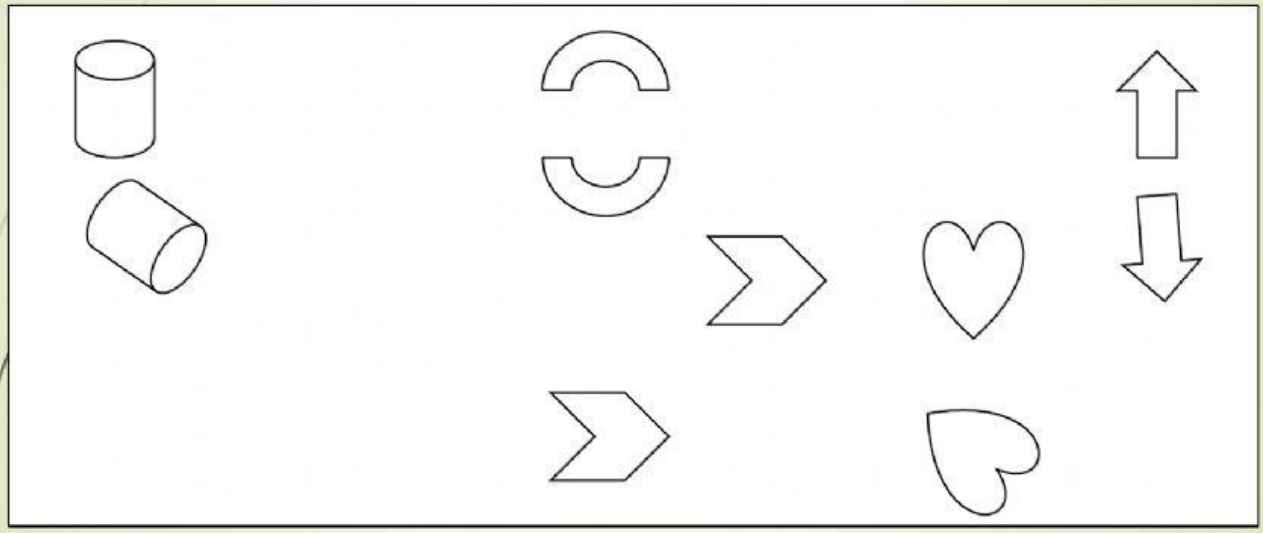

النهاية
بالتوفيق للجميع