SAINS : SISTEM SURIA : TAHUN 3

1. Isikan tempat kosong dengan jawapan jawapan yang tepat.

a) _____ ialah pusat Sistem Suria, iaitu sebuah bintang yang mengeluarkan cahaya dan haba.

b) Planet yang paling hampir dengan Matahari ialah _____.

c) Planet yang paling panas ialah _____.

d) Planet yang sesuai didiami oleh hidupan ialah _____.

e) Planet yang paling sejuk ialah _____.

2. Lengkapkan maklumat mengenai ahli sistem suria berikut:

AHLI SISTEM SURIA	CIR - CIRI
 Matahari	• Batuan logam yang beredar mengelilingi Matahari • Berada di dalam lingkaran di antara planet Marikh dengan Musytari • Juga dipanggil jalur asteroid
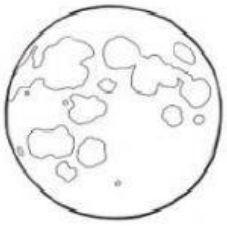 Satelit semula jadi	• Ialah gas-gas beku, batuan dan debu yang beredar mengelilingi Matahari • Tidak mengeluarkan cahaya, tetapi akan bersinar dan membentuk ekor yang panjang apabila berada dekat dengan Matahari
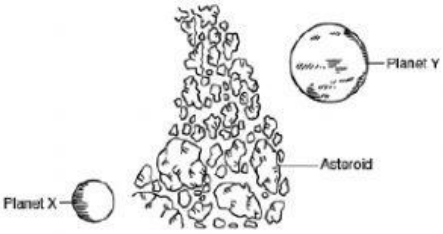 Asteroid	• Pusat sistem suria • Sebuah bintang yang mengeluarkan cahaya dan haba • Semua planet dan ahli lain beredar mengelilingi Matahari
Komet	• Satelit semula jadi Bumi dikenali sebagai Bulan • Planet lain mempunyai satelit semula jadi sendiri