UNIDAD EDUCATIVA "JULIO VERNE"

LECCIÓN DE MATEMÁTICAS

Nombre:

Fecha:

Instrucción: leer las preguntas y resolver correctamente.

1.- Identifique el conjunto con una C si está determinado por comprensión y E si está determinado por extensión.

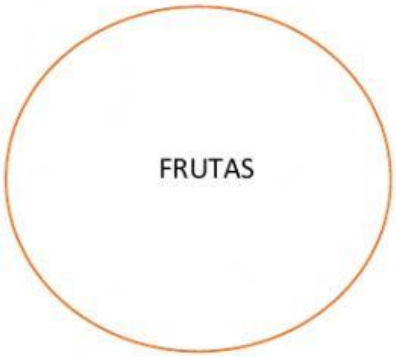

2.- Completar la ruleta de la tabla del 3

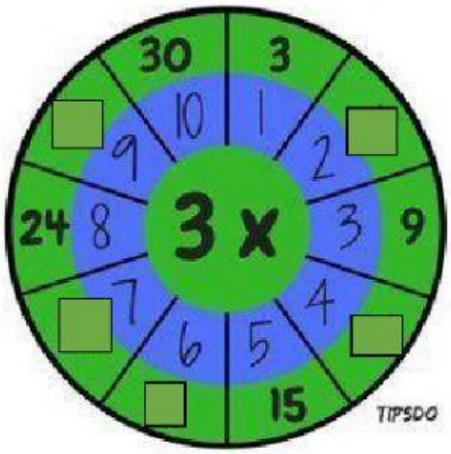

3.- Escribir en letras las unidades de mil.

a.- 4560 =

b.- 1985 =

4.- Identifique el valor posicional del número.

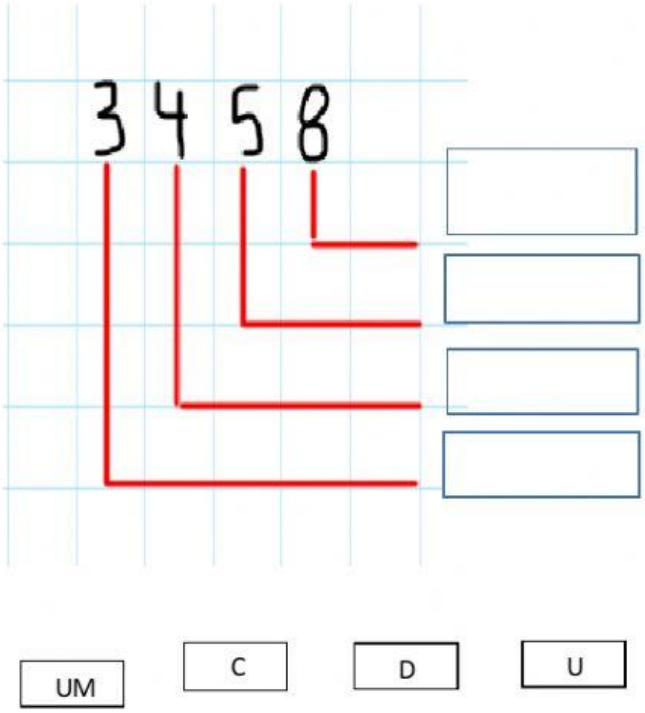

5.- RESUELVA LOS PROBLEMAS.

A.- Juan tiene en su granja 1800 gallinas y 2695 cuyes. ¿Cuántos animales tiene Juan?



a. 4000
b. 6549
c. 4495

B.- En un terreno sembramos 5700 plantas de tomate, durante una semana no hubo lluvias, por esta razón murieron 1865 plantas. ¿Cuántas plantas de tomate quedaron vivas en el terreno

a. 3500

b. 3835

c. 1890