¿QUÉ HORA ES?

Lee la hora en los relojes digitales.
¿Puedes indicar la hora exacta en los relojes analógicos que están junto a ellos dibujando la aguja que falta?

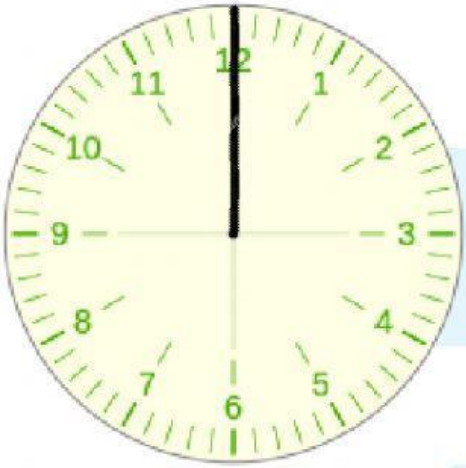

04 : 00

11 : 30

02 : 15

09 : 30

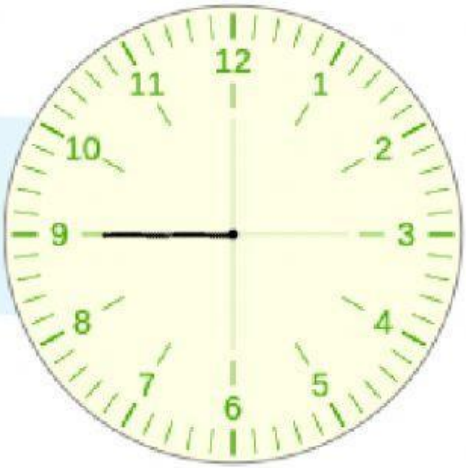

¿QUÉ HORA ES?

Lee la hora en los relojes digitales.
¿Puedes indicar la hora exacta en los relojes analógicos dibujando la aguja que falta?

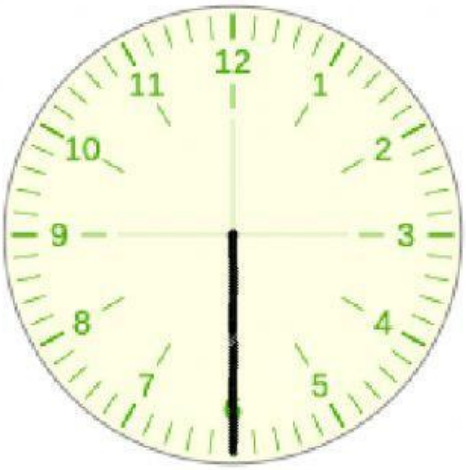

3:30

11:00

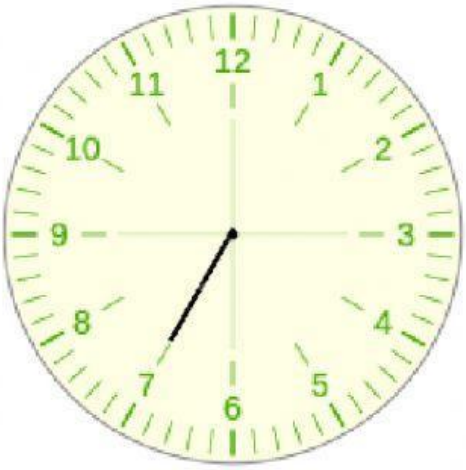

7:00

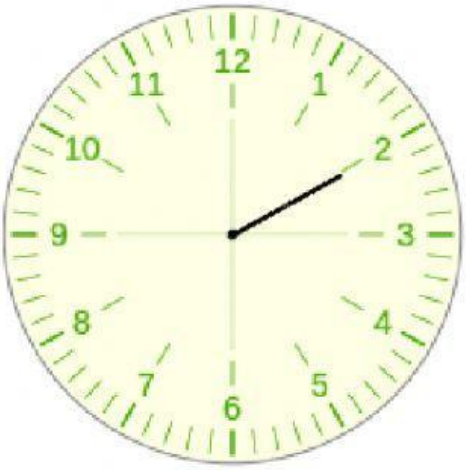

2:45