المملكة العربية السعودية
وزارة التعليم
إدارة التعليم الأحساء
الإبتدائية الثالثة بالشعبة

تحديد الأنماط

اختاري الإجابة الصحيحة:

١) وحدة النمط في الشكل المجاور



أ



ب

ج



٢) الشكل المشابهة للنمط المجاور:

أ

ب)