ВІДНІМАЄМО ЧИСЛА НА ОСНОВІ ВЗАЄМОЗВ'ЯЗКУ ДОДАВАННЯ І ВІДНІМАННЯ

1 Запиши склад чисел.

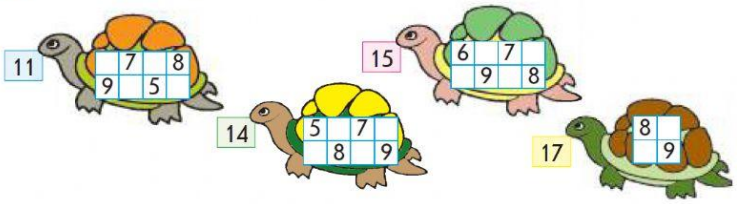

2 Заміни числа сумою.

10=.+1	13=.+4	14=.+7	16=.+8
8=.+1	16=.+9	18=.+9	12=.+9
17=.+8	16=.+7	17=.+9	13=.+9

3 Досліди рівності. Чому результат дорівнює першому доданку? Закінчи обчислення.

(5+9)−9=5	(8+6)−6=□	(7+9)−9=□
(8+7)−7=8	(9+4)−4=□	(6+5)−5=□

4 Знайди значення виразів за схемами.

Підказка! Заміни зменшуване зручними доданками . Дивись на стрілочки.

10−9=(.+.)−9=.
.+9

8−7=(.+.)−7=.
.+7

14−9=(.+.)−9=.
.+9

13−7=(.+.)−7=.
.+7

12−6=(.+.)−6=.
.+6

11−5=(.+.)−5=.
.+5

5 Знайди значення різниць за схемами із коментарем.

18−9=□
□+□

11−5=□
□+□

16−8=□
□+□

15−6=□
□+□

14−6=.
.+.

14−7=.
.+.

12−9=.
.+.

16−8=.
.+.

17−8=.
.+.

13−5=.
.+.

14−5=.
.+.

13−7=.
.+.

6 Розглянь першу рівність. Що означає «від 11 відняти 6»? Знайди значення решти різниць за зразком.

11−6=5, оскільки 5+6=11
12−4=□, оскільки □+4=12
13−5=□, оскільки □+5=13

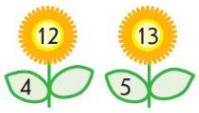

Знайди значення різниць за схемами.

9−8=□, оскільки □+8=9
□+8

9−7=□, оскільки □+7=9
□+7

12−8=□, оскільки □+8=12
□+8

13−7=□, оскільки □+7=13
□+7

7 Це цікаво! Переглянь відео про рибу-прилипалу. А потім розв'яжи задачу.

1) На черепасі каталося 15 риб-прилипал. Скільки риб залишилося після того, як 5 із них прилипли до риби-місяця?

Скільки риб-прилипал каталося на черепасі?

Скільки риб прилипло до риби-місяця?

Доповни короткий запис та схему:

I — □
II — ?
□

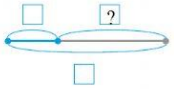

Скільки риб залишилося?