4º LAS FIGURAS MUSICALES

1. Completa la siguiente tabla colocando los elementos que faltan en su sitio correspondiente.

Nombre	Figuras	Silencios
	𝅝	
blanca		𝄼 𝄼
	𝅗𝅥 𝅗𝅥 𝅗𝅥 𝅗𝅥	
		𝄾 𝄾 𝄾 𝄾 𝄾 𝄾 𝄾 𝄾
semicorchea		

Redonda

Corchea



Negra

2. ¿Cuántos tiempos suman? Elige la opción correcta.

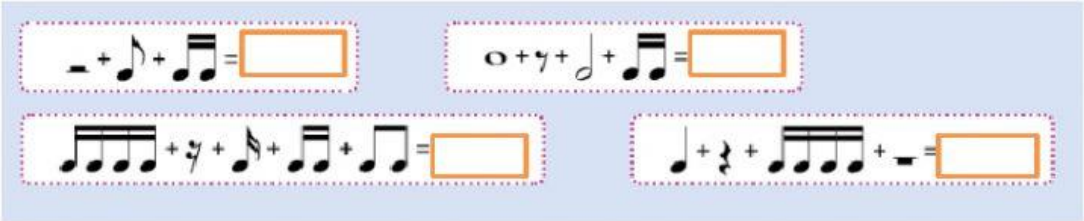

3. Observa los siguientes ritmos. Algunos están mal. Elige debajo de cada compás la opción **bien o mal**.

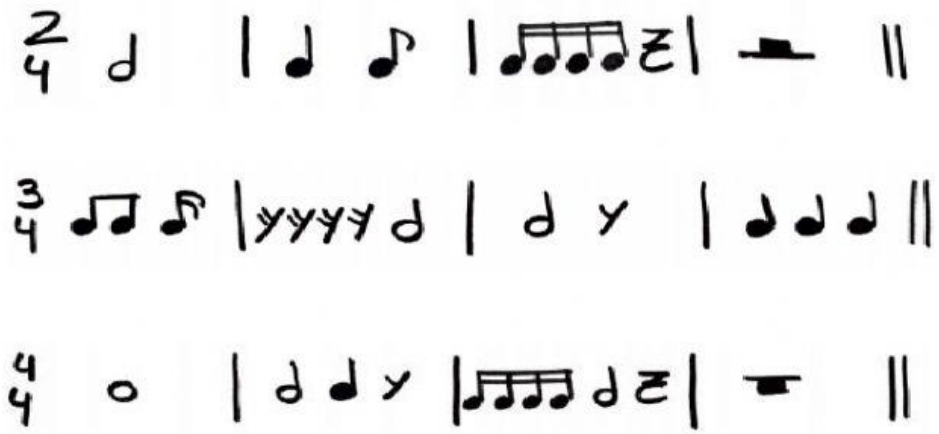

Nombre y apellidos: _____ **Curso:** ___