תרגילים

7. בכל אחד מהסרטוטים הבאים מסומנות שתי זוויות: α , β.

(1) ציינו האם הזוויות צמודות.

(א)

- קדקוד משותף.
- שוק משותפת.
- השוקיים האחרות על ישר אחד.

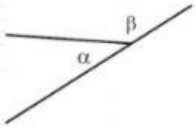

(ב)

- קדקוד משותף.
- שוק משותפת.
- השוקיים האחרות על ישר אחד.

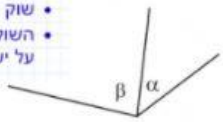

(ג)

- קדקוד משותף.
- שוק משותפת.
- השוקיים האחרות על ישר אחד.

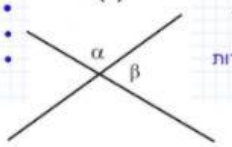

(2) ציינו האם הזוויות קודקודיות.

(א)

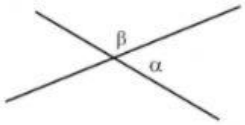

(ב)

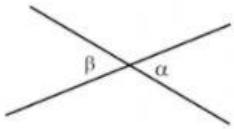

(ג)

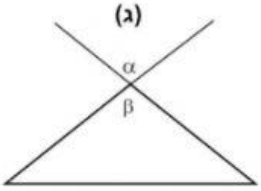

(3) ציינו האם הזוויות צמודות, קודקודיות, או לא זה ולא זה.

(א)

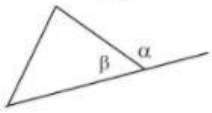

(ב)

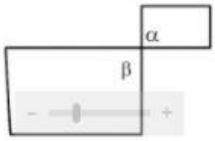
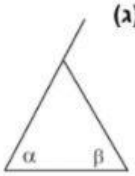
(ג)