Nombre: _____ Curso : 7mo._ _

PASE DE SALIDA

Clasifique los triángulos según sus lados y ángulos.

	Según sus lados	Según sus ángulos
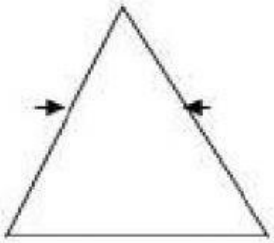	_____	_____
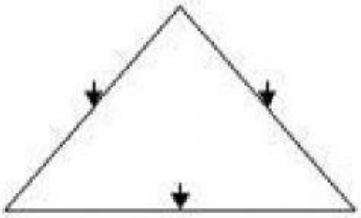	_____	_____
	_____	_____
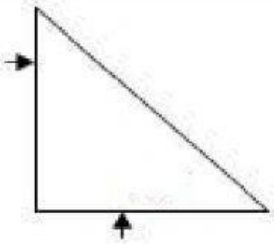	_____	_____