CIENCIAS SOCIALES
CRA LOS ALMENDROS

1.- Escribe el número de cada cordillera en su lugar correspondiente y escribe el nombre de las dos depresiones que conoces.

1. Sistema Central	2. Montes de Toledo	3. Cordillera Cantábrica
4. Sierra Morena	5. Sistema Ibérico	6. Macizo Galaico
7. Pirineos	8. Sistemas Béticos	9. Montes Vascos

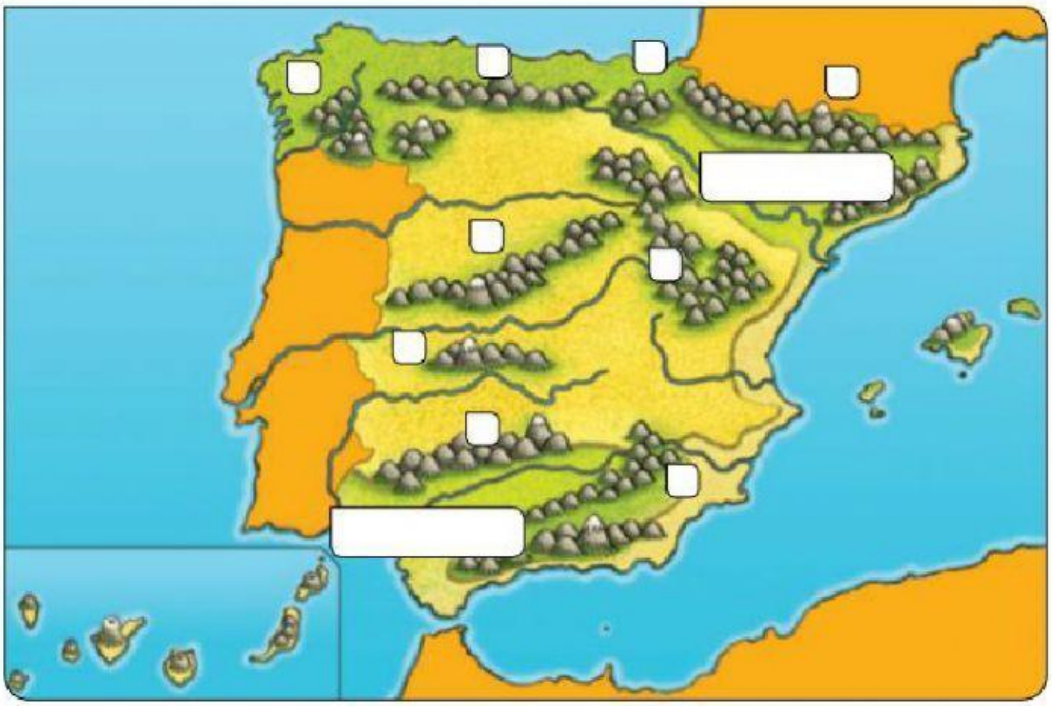

2.- Completa las siguientes oraciones:

Los límites del continente europeo son: al norte el _____; al sur, el _____; al oeste, el _____, y al este los _____ y el _____.

Las _____ son porciones de tierra rodeadas completamente por agua.

Las _____ son porciones de terreno que están rodeadas de mar por todas partes excepto por una parte que se denomina _____.

España es el territorio europeo más cercano al continente africano, solo nos separa el _____.

3.- Escribe la letra correspondiente al lado de cada uno de estos nombres.

- Balcanes.
- Pirineos.
- Elbrús.
- Montes Urales.
- Montes Escandinavos.
- Apeninos.
- Alpes.
- Gran Llanura Europea.
- Océano Glacial Ártico.
- Mar Mediterráneo.
- Mar Negro.
- Llanura de Europa Oriental.
- Océano Atlántico.
- Mar Caspio.

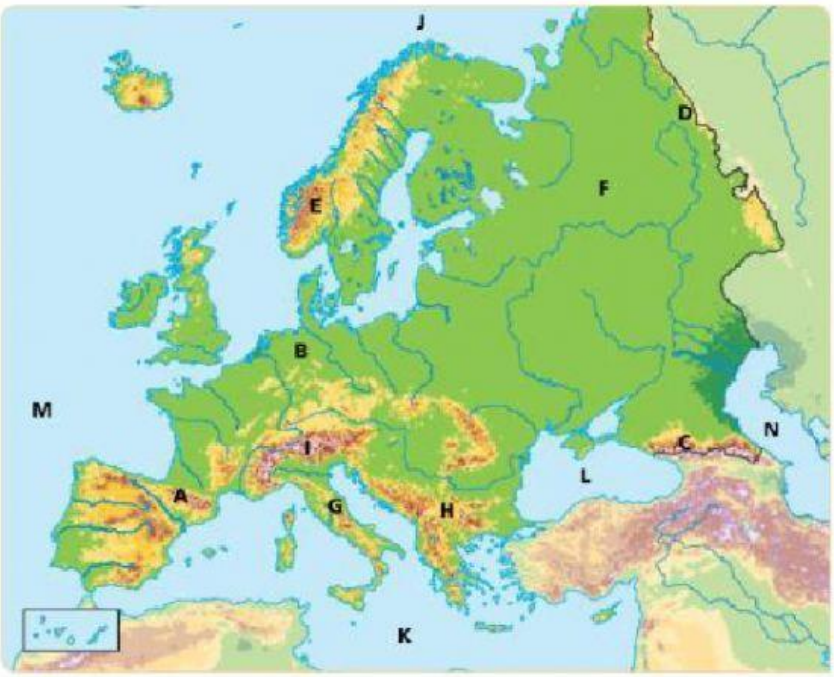

4.- Escribe el nombre de los archipiélagos españoles, el nombre de sus islas y lo que sepas sobre su relieve.
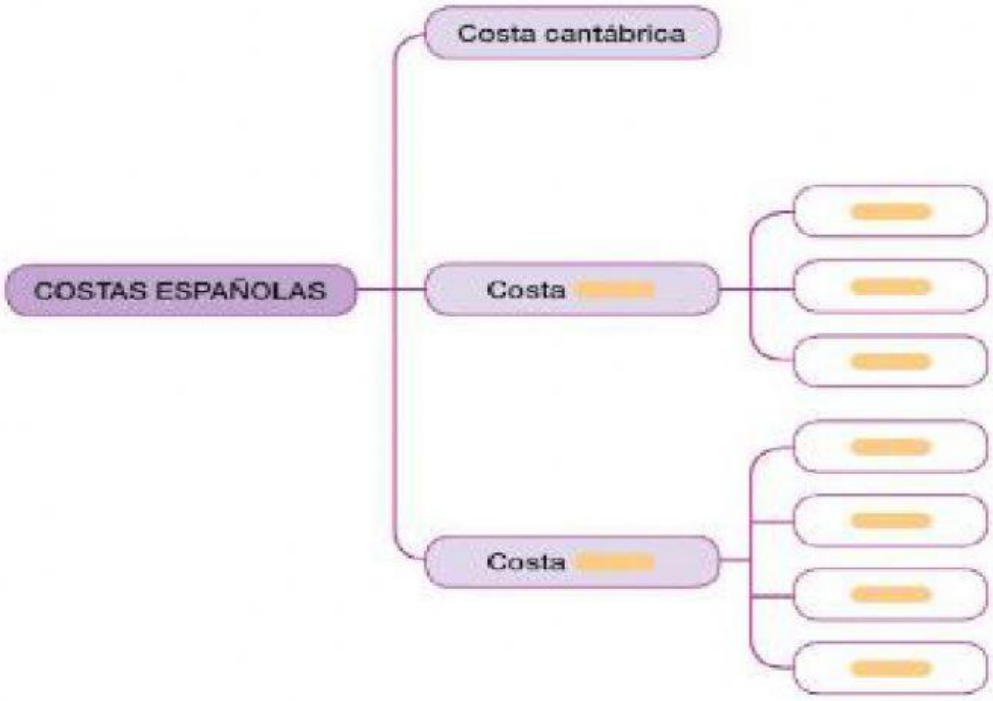
5.- Completa la tabla.