Institución Educativa Privada

CRISTO REDENTOR

SIEMPRE UN PASO ADELANTE

MATEMÁTICA

HOJA DE APLICACIÓN
2º GRADO

ÁREA DE UNA FIGURA

1.- Une con la imagen que corresponde.

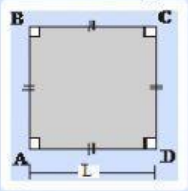

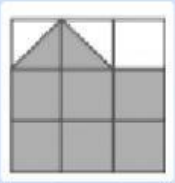

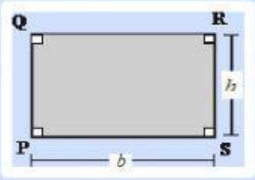

Área del rectángulo: b x h (base por altura)

Área del cuadrado: L x L (lado por lado)

Área de una figura: Se halla en unidades cuadradas de un área que puede estar o no

2.- Halla el Área de la siguiente figura.

A) 4

B) 16

C) 8



3.- Une y Halla el área de la parte sombreada.

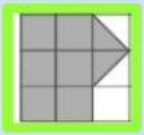

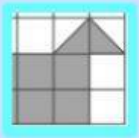

5

6

7

4. Una mesa cuadrada mide 2 m uno de sus lados. ¿Cuánto medirá su área?

2m

RESPUESTA: _____

5. Arrastra los números hacia los círculos y colócalos donde corresponda.

Una alfombra rectangular mide 2 m de altura y 7 m. de base. ¿Cuánto medirá su área?
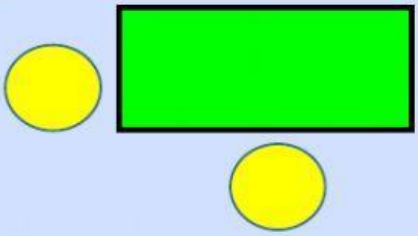
2 **7**