משימה בגאומטריה- זוויות

1. בכל שעון **סמנו את קשת הזויות** ורשמו אם היא חדה, ישרה, קהה או שטוחה



2. רשמו את סוג הזויות המסומנת בסעיפים ד-ט

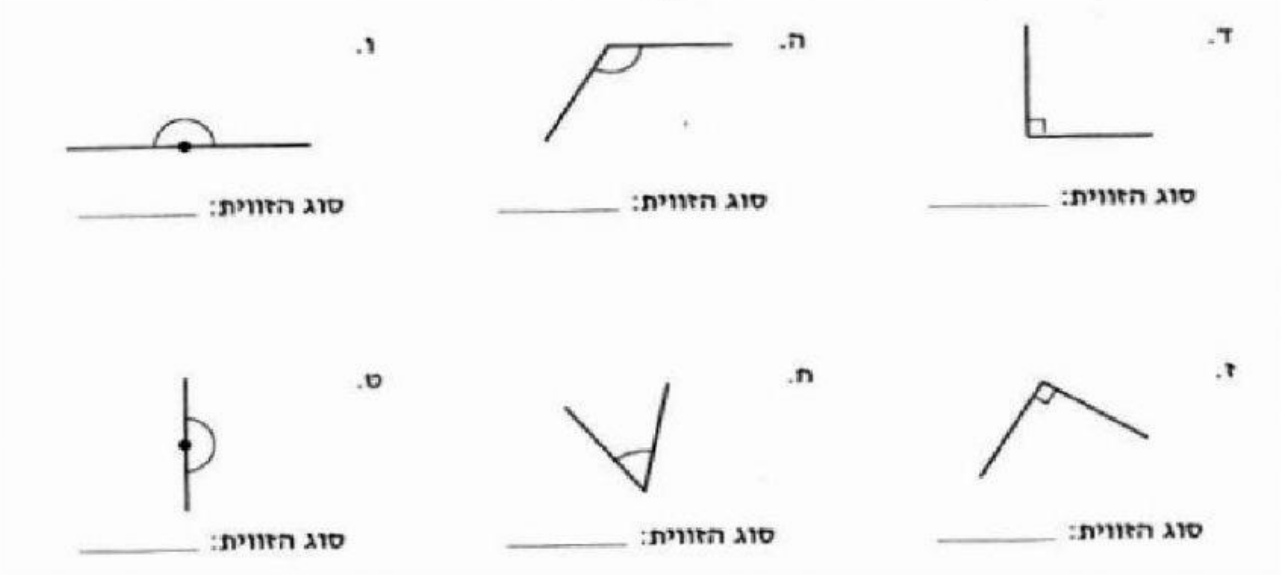

3. לפניכם מד-זויות המודד זויות. מסומנת זווית.
הזוית המסומנת היא בת _____ מעלות והיא זוית _____

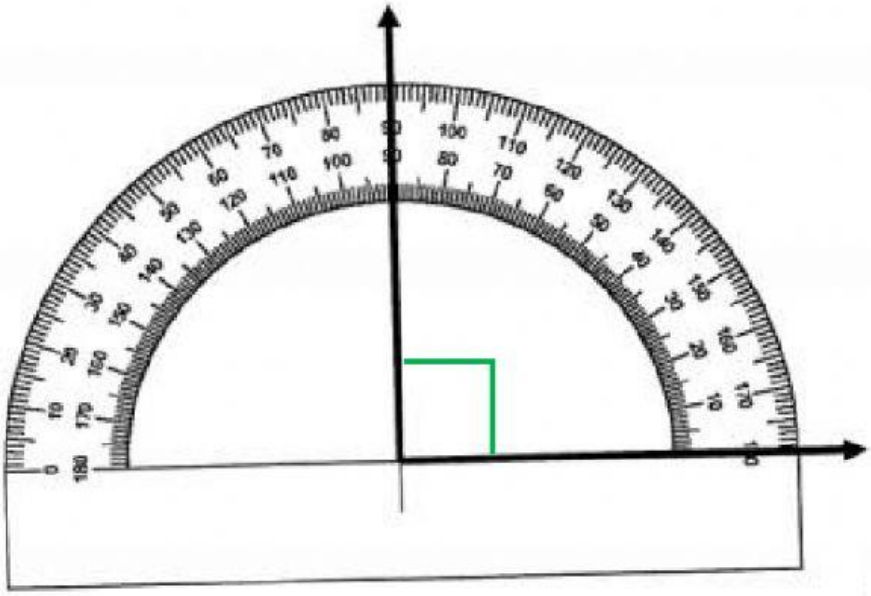

5. סמנו את התשובה המתאימה ביותר:

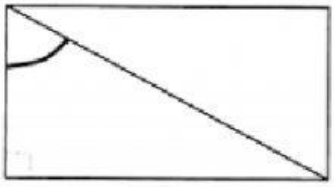

הזווית המודגשת היא:

- ☐ בת 90°
- ☐ בין 45° ל- 90°
- ☐ פחות מ- 45°

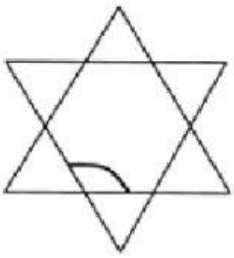

הזווית המודגשת היא:

- ☐ בת 90°
- ☐ זווית חדה
- ☐ זווית קהה

תזכורת...

זוית שטוחה - זוית ששתי שיקיה נמצאות על ישר אחד (180°).

זוית ישרה – מחציית מזוית שטוחה (90°).

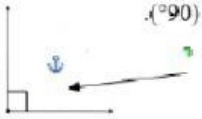

בשרטוט נהוג לסמן זוית ישרה כך:

זוית חדה – זוית הקטנה מזוית ישרה (קטנה מ- 90°)

זוית קהה – זוית הגדולה מזוית ישרה (גדולה מ - 90°).

הגדרת הזווית

זוית – שתי קרניים היוצאות מנקודה אחת יוצרות צורה הנקראת זוית.
הקרניים נקראות שוקי הזוית.

הנקודה נקראת קודקוד הזוית.