Escuela de Educación Básica Particular
JOSÉ MARTÍ
Examen Quimestral

NOMBRE: .....

CURSO: CUARTO AÑO DE EDUCACIÓN BÁSICO

1. **ENCUENTRE EL PATRÓN Y COMPLETE:**

5, 10, ____, 20, _____, 30, _____, _____, _____, _____.

90, 80, _____, _____, 50, _____, _____, _____, _____.

3, 6, 9, _____, _____, _____, _____, _____.

2. **RESUELVA LAS SIGUIENTES OPERACIONES COMBINADAS**

- 50 – 20 + (15 x 2) =

  50 – 20 + 30

- (36 + 6) - 10 x 2 =

  30 – 10 X 2

3. **ESCRIBA LAS PARTES DEL POLÍGONO**

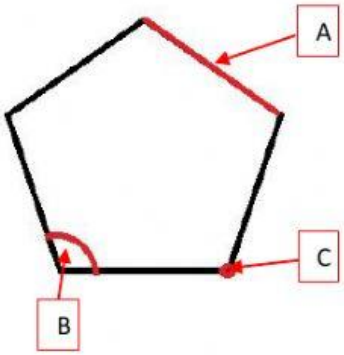

A

B

A

Escuela de Educación Básica Particular
JOSÉ MARTÍ
Examen Quimestral

4. CALCULE EL PERÍMETRO DE LAS SIGUIENTES FIGURAS

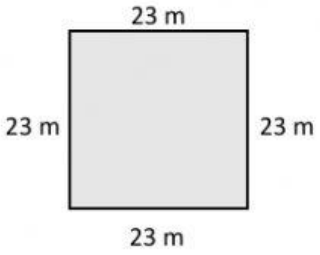

TOTAL

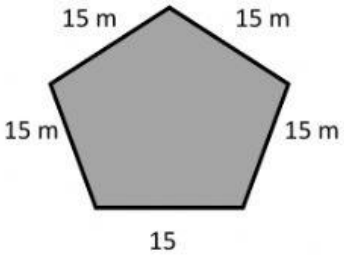

TOTAL

5. ESCRIBA LA RESPUESTA CORRECTA

5 x 5 = ☐
6 x 3 = ☐
3 x 10 = ☐
2 x 8 = ☐
4 x 9 = ☐

1 x 3 = ☐
6 x 6 = ☐
2 x 4 = ☐
1 x 8 = ☐
2 x 2 = ☐

6. RESUELVA LAS SIGUIENTES MULTIPLICACIONES

$$\begin{array}{r} 731 \\ \times\ 6 \\ \hline \end{array}$$

$$\begin{array}{r} 551 \\ \times\ 2 \\ \hline \end{array}$$