MISIONEROS CLARETIANOS
UNIDAD EDUCATIVA CLARETIANA
Guerrero Valenzuela y Azuay; 3871762
Guayaquil – Ecuador

Una Institución al Servicio de la Vida y la Dignidad del Ser Humano

Examen Del Primer Quimestre
Año Lectivo 2020 – 2021

Estudiante:……..
Curso: 4° EGB **Asignatura:** Matemática
Docente: Lcda. Isabel López
Indicaciones Generales:

- Realice su Evaluación con orden seleccione la respuesta correcta. (solo debe ser una vez)
- Lea con atención las preguntas, piense y conteste según las instrucciones.
- Cualquier intento de deshonestidad académica durante la evaluación, equivale a la anulación.
- De la nota (Art. 223 R – LOEI)
- La evaluación es calificada sobre 10puntos.

1. **Identifique los números que se mencionan en siguientes textos. Luego elija la opción correcta de la escritura numérica del texto.**

El maremoto tendría olas gigantes de 104 metros de altura, aproximadamente y huracanes con vientos muy veloces de hasta 1 960 metros por minuto.

A) Ciento cuatro	Mil novecientos sesenta
B) Cien cuatro	Mil nueve sesenta
C) Ciento Cero Cuatro	Mil novecientos sesenta
D) Cuatro cien	Novecientos sesenta mil

2. **ELIJA EL NOMBRE DE LOS SIGUIENTES ÁNGULOS**

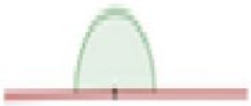	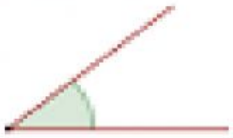		

3. **RESUELVA EL SIGUIENTES OPERACIONES COMBINADAS.**

(23 + 15) - 12 =

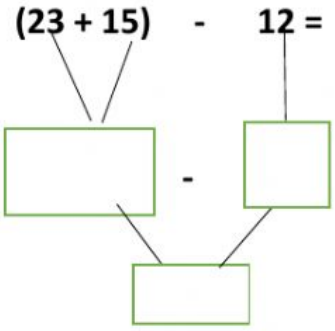

(45 - 7) + 5 +10 =

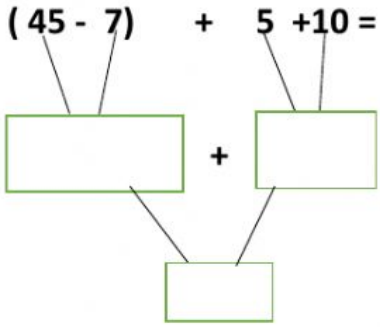

4. 2Arrastre cada nombre y ubicarlo en la figura geométrica correcta.

Prisma | Cilindro | Cono | Pirámide



5. ARRASTRE CADA PIEZA AL RESULTADO QUE CORRESPONDE.

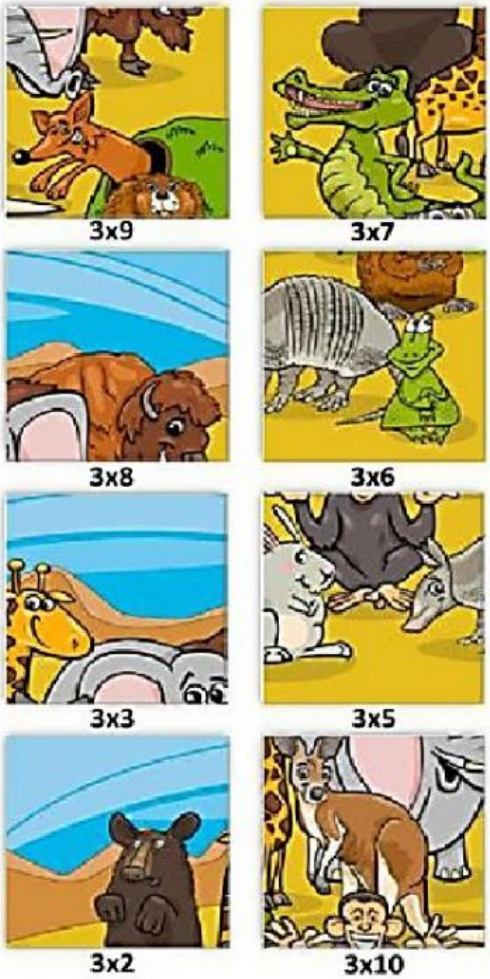

6	9	24
21	30	27
12	15	18