Векторний графічний редактор Inkskape

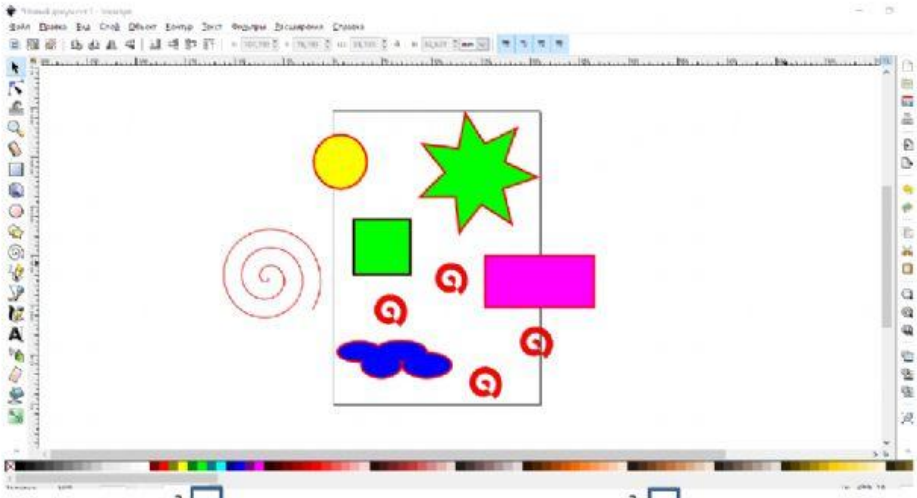

1.Ви бачите малюнок в Inkskape. Якщо його роздрукувати, то який із трьох варіантів буде роздруковано?

1. ☐



2. ☐



3. ☐



2. Ви бачите меню програми Inkscape.
Напишіть пункти меню відповідні до їх вмісту

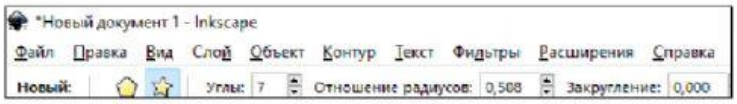

1).Тут знаходиться панель інструментів ЗАЛИВКА і ШТРИХ (Заливка и обводка)

2).Тут знаходиться команда дублювання, копіювання, відміна останньої дії...

3).Тут можна створити, перейменувати, копіювати ШАРИ.

4.Розташуйте біля відповідних кнопок панелі інструментів їх призначення

Малювання каліграфічним пером

Коло

Текст

Крива Безьє

Прямокутник

Виділення, переміщення, повертання малюнка

спіраль

Зірка

3.Дано панель інструментів ЗАЛИВКА І ШТРИХ.Відмітьте вкладку, в якій можна поміняти товщину контура

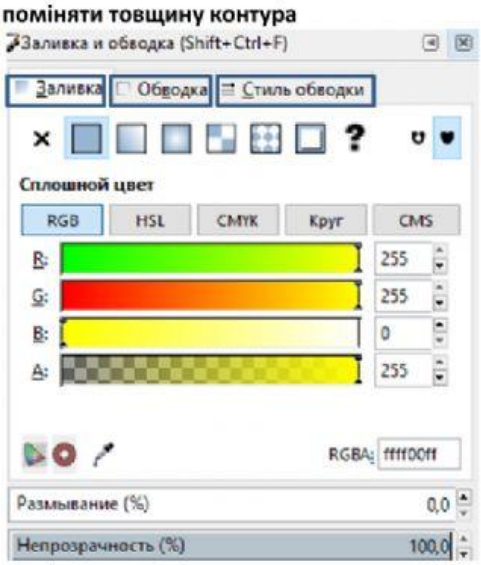

5.На малюнку ви бачите панель інструментів ШАРИ.

1)Який із шарів невидимий?
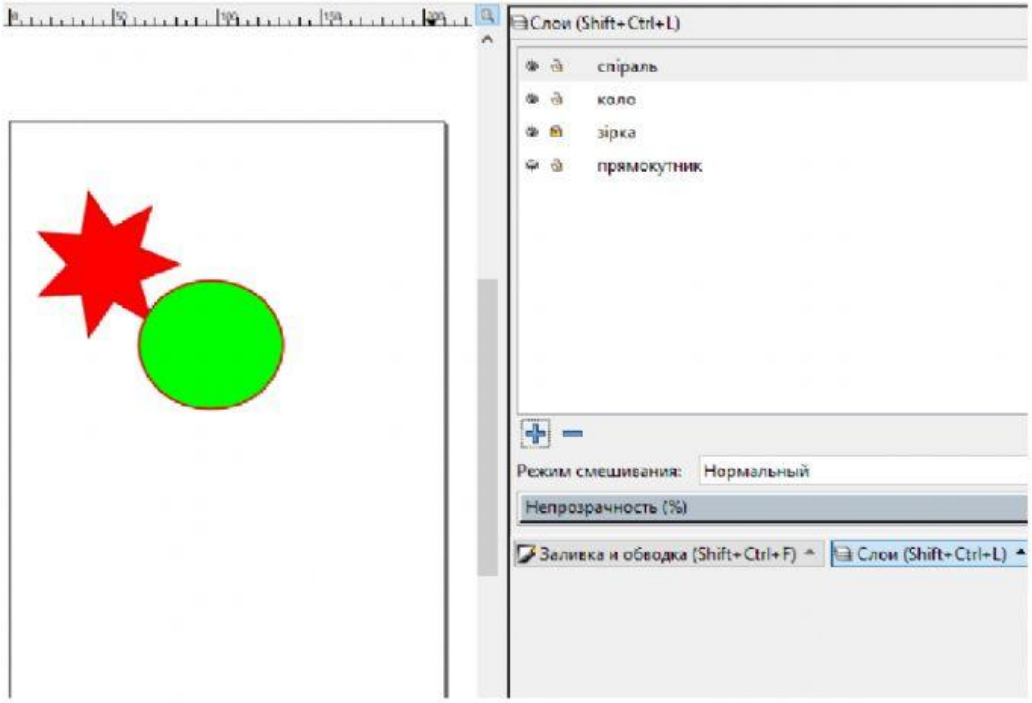
2)Який із шарів заблокований?