REPASO **UNIDA 1** **3º ESO**

1.- Señala si las siguientes frases son verdaderas (V) o falsas (F):

_____ El ser humano es un organismo unicelular porque está formado por células.

_____ Algunos seres vivos tienen tejidos formados por una sola célula.

_____ Las biomoléculas son las moléculas que forman parte de los seres vivos.

_____ Son biomoléculas: el agua, las sales minerales, las células, los lípidos y las proteínas.

2.- Elige la palabra adecuada.

a) Un aparato está formado por órganos **similares/ diferentes.**

b) Los tejidos están formados por **una/varias** células.

c) El nivel atómico es el más **sencillo/complejo.**

3.- Completa las siguientes frases:

a) El oxígeno y el carbono pertenecen al nivel ._____

b) Los glúcidos y los lípidos son ._____

c) El primer nivel de organización con vida es ._____

d) La unión de varios átomos da lugar a ._____

e) Un tejido es la unión de muchas ._____

f) Los tejidos se unen y forman ._____

g) La unión de diferentes órganos que realizan una función común da lugar a ._____

h) El ser vivo en su conjunto pertenece al nivel de ._____

4.- Escribe el nombre de los siguientes orgánulos:

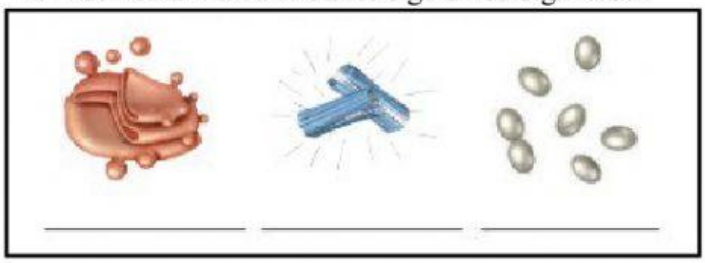

_____ _____ _____

_____ _____ _____

5.- Completa el esquema con las palabras del recuadro.

citoplasma **núcleo** **célula eucariota** **membrana plasmática**

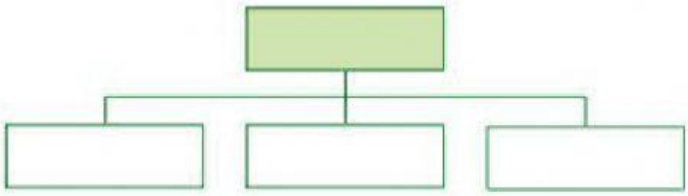

6.- Une con flechas los tipos de tejido con el grupo al que pertenecen.

Adiposo •

Cartilaginoso •

De revestimiento •

Óseo •

Glandular •

Muscular cardiaco •

Muscular liso •

- Epitelial
- Conectivo
- Muscular

7.- Identifica los tejidos de cada fotografía.

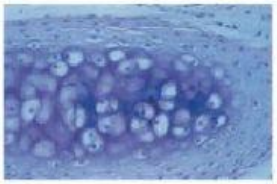

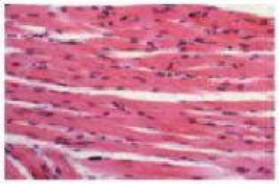

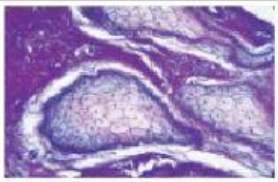

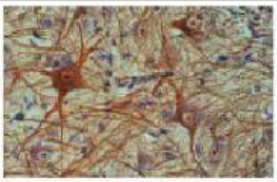

8.- Une con flechas los tipos de tejidos con su función.

Epitelial •

Muscular •

Conectivo •

Nervioso •

- Transmitir órdenes
- Cubrir superficies
- Movimiento
- Mantener los órganos unidos

9.- Une con flechas ambas columnas según el tipo de tejido.

Corazón •

Médula ósea •

Oreja •

Cráneo •

Piel •

- Tejido epitelial
- Tejido óseo
- Tejido nervioso
- Tejido cartilaginoso
- Tejido muscular cardiaco