CIENCIA Y TECNOLOGIA – PRIMER GRADO

DIA 1
SEMANA 27

1.- Observa la imagen:

1.1.- ¿Qué vio Marcelo? Señala la respuesta correcta:

- Mesas,sillas plantas,juguetes ,carros ,vacas
- Rosas,perro,palomas,mesa,árbol,elefante de juguete
- Margaritas ,perros,palomas,mesa,árbol,elefantes

1.2.- ¿Cuáles son los seres que tienen vida? Une las imágenes con las palabras

Seres Vivos



Seres sin vida

2.- El ciclo de vida. Arrastra la respuesta donde corresponde:

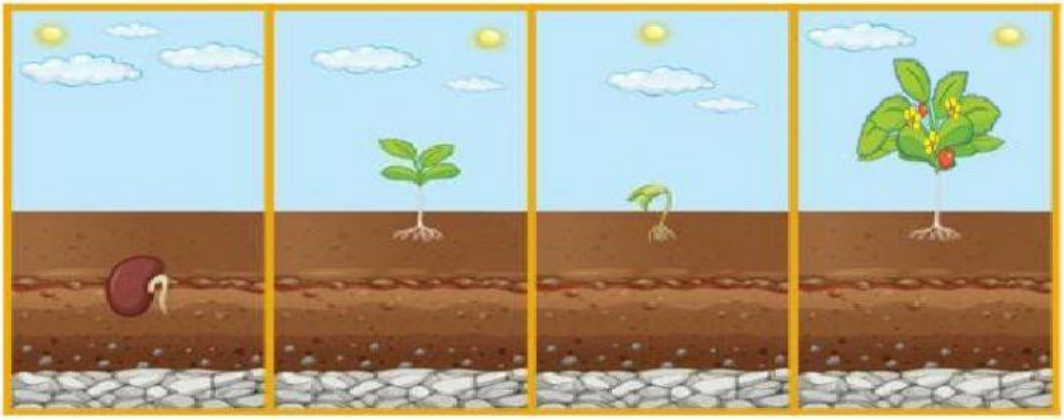

Nace	Crece	Se reproducen	Mueren

3.-Observa la imagen y arrastra la respuesta correcta:



Recuerda: Los seres vivos nacen crecen se reproducen y mueren.

3.1.- Los elefantes son …

Animales terrestres | Animales acuáticos | Animales aéreos

3.2.- Los elefantes miden ….

2 metros | 3 metros | 4 metros

3.3.-Los elefantes son:

Animales mamíferos por que nacen del vientre de su madre

Animales ovíparos porque nacen por medio de huevos

3.4.- Los elefantes se reproducen a partir de:

12 a 15 años | 15 y 18 años | 18 y 20 años

3.5.- Los elefantes viven …

40 a 70 años | 40 a 100 años | 40 a 150 años

4.- En tu cuaderno de Ciencia y tecnología dibuja el ciclo de vida de las plantas.