A F 3

1.- ¿Cuánto costarán tres barras de pan y dos litros de leche?

Datos: barras de pan. Litros de leche.

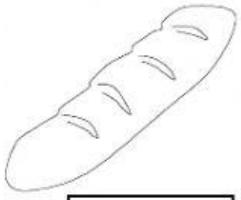

63 cent.

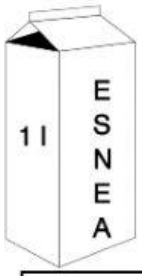

57 cent.

Las operaciones son

Precio pan Precio leche

_____ _____

TOTAL

_____

La solución es

2.- He ido a comprar una barra de pan que cuesta 60 céntimos de euro. Si entrego 1euro al tendero, ¿cuánto me devolverá?.

Datos: una barra de pan cuesta céntimos.

Entrego euro.

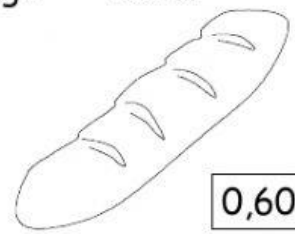

0,60 euros

La operación es

1euro= céntimos.

La solución es: