NÚMEROS GRANDES

9 dígitos

1.- COMPLETA las sucesiones numéricas de manera que cada número sea mayor que el anterior. FÍJATE en el ejemplo. RECUERDA dejar un espacio cada tres dígitos.

a.- Una centena de mil mayor.

548 345	648 345		

b.- Una unidad de millón mayor.

783 452 190		

c.- Una centena de millón mayor.

307 387 123		

2.- BUSCA el término que falta en esta operación de resta.

	3	9	7	8	5	4	3	2	6
—									
	1	0	6	5	0	7	4	2	9

3.- OBSERVA ángulo. ESCRIBE el valor que mide cada uno. SELECCIONA la clase de ángulo.

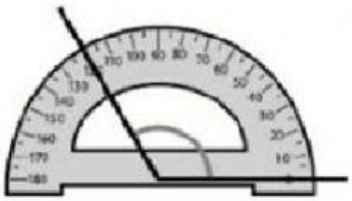

Mide ☐ grados.

Clase de ángulo: ☐



Mide ☐ grados.

Clase de ángulo: ☐

4.- MULTIPLICA números grandes:

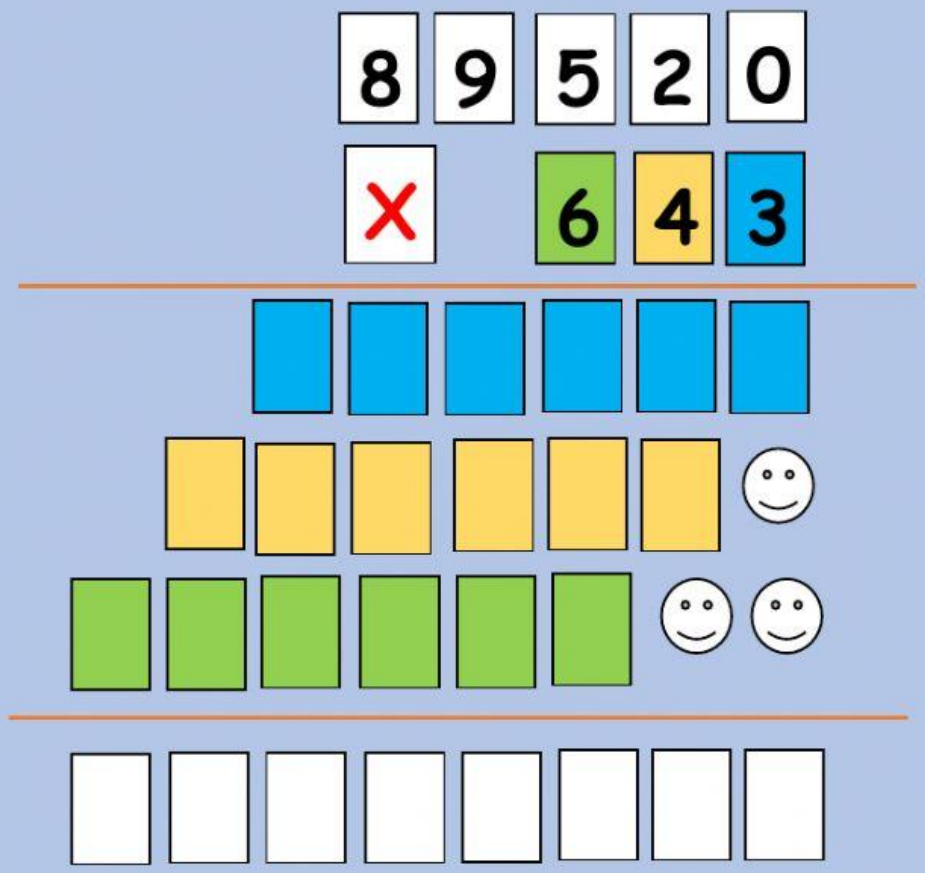

5.- COMPARA estos números:

603 645 287		603 654 287
194 842 305		194 842 305