UNIDADES DE MIL

1.- Arrastra las siguientes representaciones gráficas al casillero que corresponde y escribe el número

UM	C	D	U

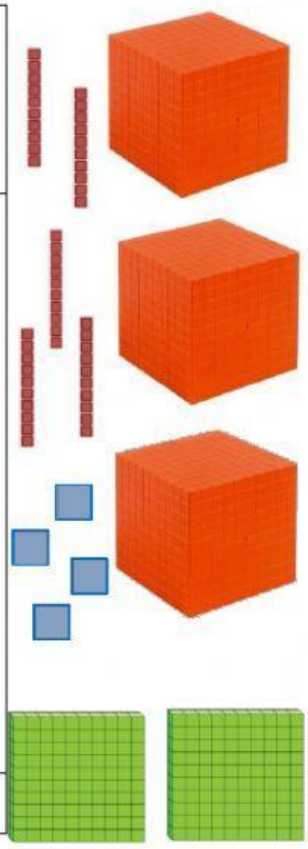

2.-Une según corresponda

2UM

6 U

6UM

3 C



LIVEWORKSHEETS

3.-Escriba el número según la representación gráfica

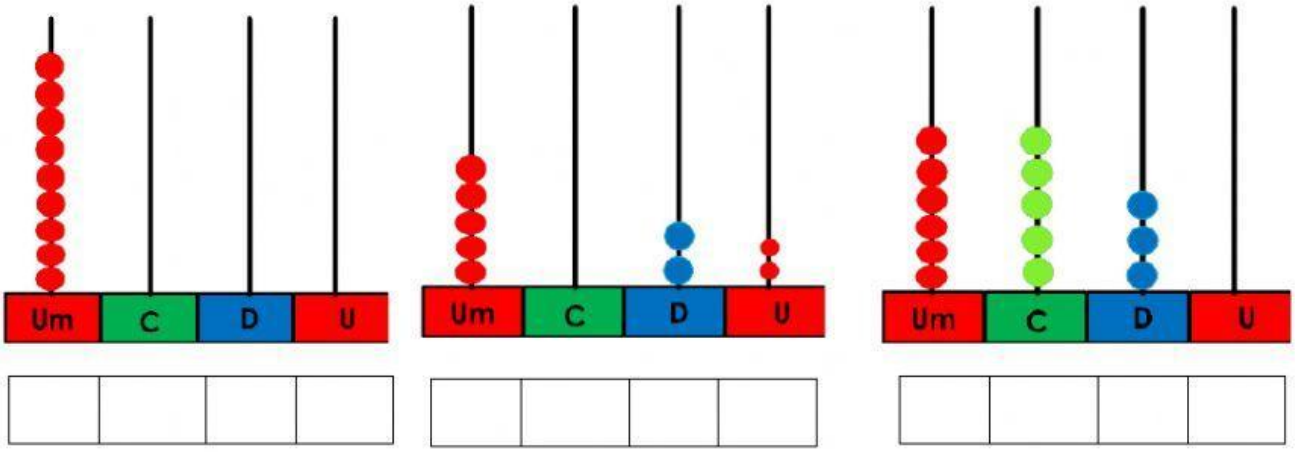

4. Completa la secuencia



5. Escribe el nombre de cada billete



_____ _____ _____

LIVEWORKSHEETS