ESCUELA DE EDUCACIÓN BÁSICA
"EDUARDO KINGMAN"

ASIGNATURA: Estudios Sociales **AÑO BÁSICO: 3ro " A" y " B"**

NOMBRE: _____

FECHA: _____}

EXÁMEN PRIMER QUIMESTRE

1.-ESCRIBE LOS PUNTOS CARDINALES EN LA ROSA DE LOS VIENTOS,



2.-ELIGE LA OPCIÓN CORRECTA

a) La rosa de los vientos es una figura que señala los puntos _____

b) Los puntos de referencia son _____ que se pueden recordar con _____

c) La formas de representación de la tierra son _____ y _____

d) El principal punto de referencia es _____

3.-ARRASTRA LAS SEÑALES DE TRÁNSITO Y UBIQUELAS DONDE CORRESPONDE

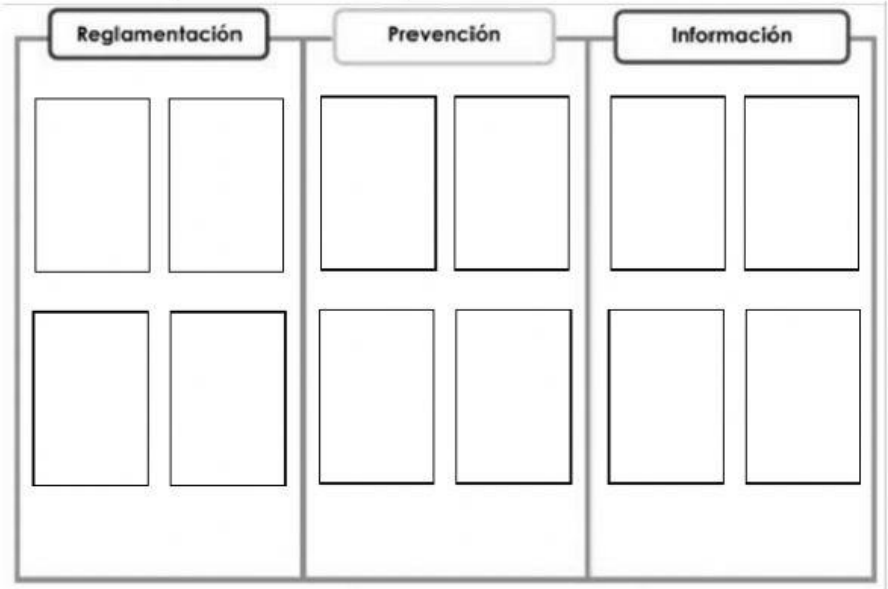

4.-ESCRIBE DEBAJO DE CADA IMAGEN SI ES UN SERVICIOS PÚBLICO O PRIVADO

BANCO

BOMBEROS

IGLESIA



COMEDOR



5.-OBSERVA EN EL PLANO Y RESPONDE LAS PREGUNTAS

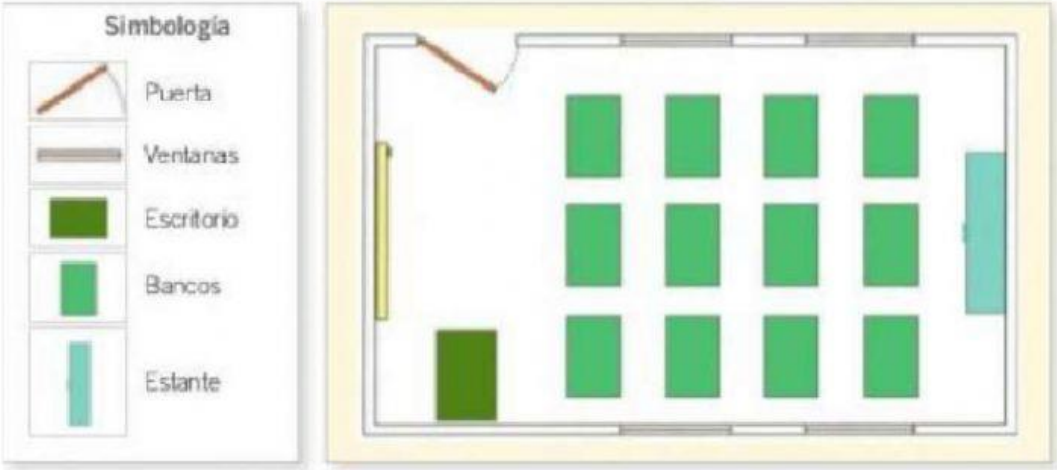

a. ¿Cuántas puertas hay?

b. ¿Cuántas ventanas hay?

c. ¿Cuántos estantes hay?

d. ¿Cuántos bancos hay?

6.-ARRASTRA Y COLOCA SEGÚN CORRESPONDA LOS COLORES DEL SEMÁFORO

7.-ESCRIBE A QUE TIPO DE MAPA CORRESPONDE CADA IMAGEN

8.- LEE Y SELECCIONA CON UN SI O NO SEGÚN CORRESPONDA

a) La comunidad es un conjunto de personas que viven en un mismo lugar.	**SI**	**NO**
b) Nuestro planeta tiene 7 océanos y 5 continentes.	**SI**	**NO**
c) Los continentes son: Asia, África, América, Europa y Oceanía.	**SI**	**NO**
d) Las comunidades pueden ser: familiar, escolar, y vecinos	**SI**	**NO**