☐ **Completa con >, <, =**

3.014 < 3.104 23.067

☐ 32.670

11.500 ☐ 11.400 515.158 ☐ 818.551

319.501 ☐ 319.501 11.123 ☐ 12.131

345.063 ☐ 106.346 218.957 ☐ 518.999

☐ **Ordena los siguientes números de mayor a menor:**

34.315 120.251 63.473 251.336 415 541.343

---

2) NUMERACIÓN ROMANA

☐ **Escribe los números que faltan.**

I	II	III	IV	V	VI	VII			X
XI	XII	XIII					XVIII	XIX	
XXI									
									XL
									L

☐ **Completa.**

XLII = 42 926 = DCLXVI=

58 = LXXXV = 420 =

3) LECTURA Y ESCRITURA DE NÚMEROS.

☐ **Completa:**

60.480 ☞ _____

quinientas treinta y tres mil cuatrocientas veinte ☞ _____

setecientos mil quinientos treinta y uno ☞ _____

72.009 ☞ _____

670.700 ☞ _____

novecientos ochenta mil ☞ _____

ciento nueve mil doscientas ocho ☞ _____

cuatrocientos sesenta y cuatro ☞ _____

63.250 ☞ _____

4)SERIACIONES:

☐**Escribe los números que faltan en estas series.**

15.320	20.320		30.320			45.320	50.320		

3.000	3.300		3.900			4.800		5.400	

10.800	10.600			10.000	9.800				9.000

5) FRACCIONES

☐ **Escribe la fracción que tiene por denominador 7 y por numerador** 5.

☐ **Colorea de verde los 7/10 de este segmento:**

.____.____.____.____.____.____.____.____.____.____.____.

☐ **Escribe la fracción que representa la parte coloreada.**

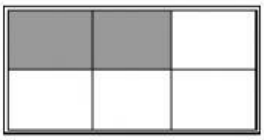

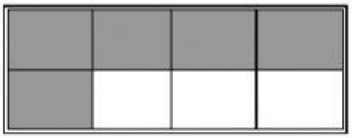

6) NÚMEROS ORDINALES.

☐ **Lee y rodea el dibujo que se indica:**

decimosegundo



vigesimoquinto

noveno

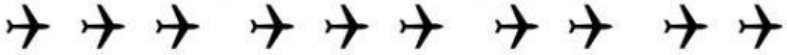

7) VALOR DE POSICIÓN: UNIDAD, DECENA, CENTENA...

☐ **Rodea la cifra de las DECENAS de MILLAR en los siguientes números:**

34.234 **278.745**

678.301

98.237

☐ **Escribe el número formado por:**

7 centenas de millar, 9 decenas de millar, 2 unidades de millar, 8 centenas, 3 decenas y 0 unidades_____

2 decenas de millar, 4 unidades de millar, 6 decenas y 8 unidades_____

4 centenas, 3 decenas de millar, 5 decenas y 3 unidades_____

8 centenas y 8 decenas_____

3 centenas de millar, 2 unidades de millar y 7 unidades_____

2 unidades y 8 decenas_____

BLOQUE 1: OPERACIONES

8) SUMAS DE NÚMEROS NATURALES

☐ **Coloca y realiza estas sumas:**

126 + 23.778 + 57 = **34.565 + 1.268 + 298.569 =**

9) RESTAS DE NÚMEROS NATURALES

☐ **Coloca y realiza estas restas:**

347.056 - 48.428 = **89.048 - 45.070 =**

10) MULTIPLICACIÓN.

☐ **Realiza estas multiplicaciones:**

56.230 X 47 = **6.071 X 305 =** **39.206 x 962=**

11) MULTIPLICACIÓN: UNIDAD SEGUIDA DE CERO.

☐ **Resuelve estas multiplicaciones:**

236 x 10 =
34.891 x 1.000 =
62 x 10.000 =
100 x 5.800 =

12) DIVISIÓN.

☐ **Resuelve estas divisiones:**

6.842 : 4 = **28.579 : 35 =** **783.206 : 268 =**

13) OPERACIONES COMBINADAS: PARÉNTESIS Y JERARQUÍA DE LAS 4 OPERACIONES.

☐ **Resuelve estas operaciones.**

(6 x 8) + 4 =	**40 + (4 x 3) =**
(10 x 5) - 20 =	**(135 - 15) : 4 =**
50 - (7 x 2) =	**(4 + 6) x (7 + 3) =**

14)PROBLEMAS.

❀ **Mi madre nació en el año 1.958.**
¿Cuántos años cumplirá en el año 2.010?

❀ **Una librería tiene cuatro estantes. Se colocan 46 libros en el primer estante, 38 libros en el segundo, 57 libros en el tercero y 44 libros en el cuarto.**
¿Cuántos libros hay en la librería?

❀ **Tengo cuarenta y tres lápices y los reparto en cuatro botes.**
En el primero pongo siete lápices, en el segundo doce lápices y en el tercero seis lápices.
¿Cuántos lápices pondré en el cuarto bote?

❀ **Una caja contiene 92 bombones, otra 78 bombones y otra 64 bombones. ¿Cuántas bolsas de 6 bombones podemos llenar?**

❀ **Un kilo de peras cuesta 2 euros. ¿Cuánto gastaré si quiero comprar 145 kilos?**

15) CÁLCULO MENTAL

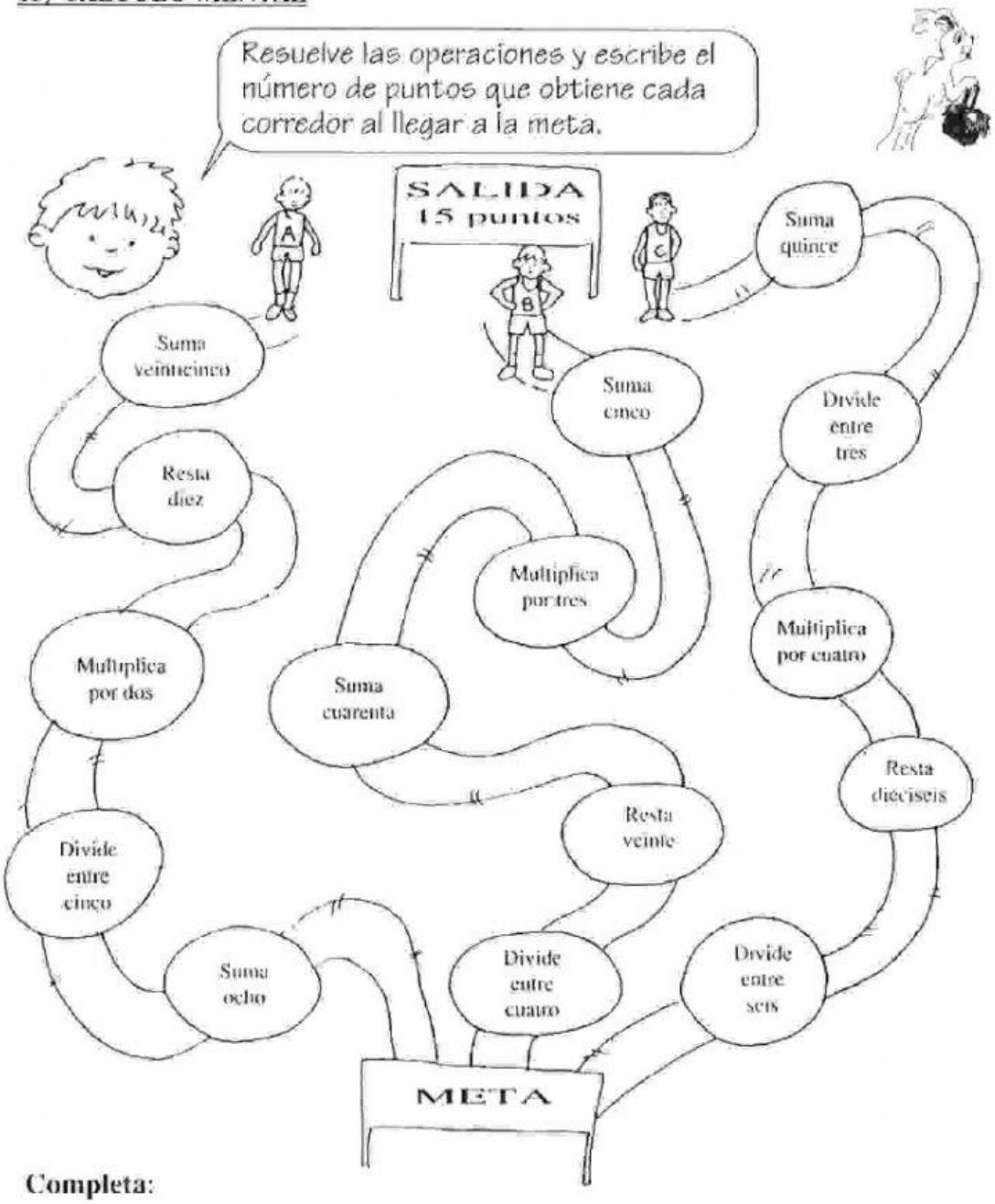

Completa:

El corredor A ha obtenido: _____ puntos.

El corredor B ha obtenido: _____ puntos.

El corredor C ha obtenido: _____ puntos.

BLOQUE 2: MEDIDAS

16) DE LONGITUD, CAPACIDAD Y MASA.

☐ **Marca con una X según la unidad de medida de longitud que utilizarías para medir estas distancias.**

	km	m	dm	cm	mm
La anchura de un libro				X	
La longitud del bolígrafo					
El largo del salón					
La altura de una casa					
El grosor de un cristal					
La anchura de un cajón					
Desde Gran Canaria a Tenerife					

☐ **Completa.**

1 litro = _____cl
2 litros=_____cl
5 dl =_____cl

1 litro = 10 dl
5 litros=___dl
2 dl = 20 cl

☐ **Completa.**

1 t = 1.000 kg
5 t =_____kg

1/2 t =_____kg
1/4 t =_____kg

☐ **Averigua.**

¿Cuántos metros son 6 km y 35 hm?

¿Cuántos medios litros hay en 2 litros?

1 kg y 500 g =_____g