Nome: _____

Série: _____ **Data:** _____

1. Qual das figuras abaixo representa a fração três inteiros e seis sétimos?

a)



b)



c)



d)



2. No campeonato de vôlei misto organizado pela escola de um determinado município, o time campeão contava com quatro jogadores, onde cada jogador receberá uma fração para colocar na camiseta, conforme mostra a imagem abaixo.

Qual dos jogadores possui a camisa cuja numeração equivale ao número decimal 0,6?

a) Alice.

b) Sara.

c) Jorge.

d) Henrique.

Fonte: https://t.ly/iqU6