COLEGIO EVITA ROSSO
La Plata Huila
GRADO SEGUNDO

SÓLIDOS O CUERPOS GEOMÉTRICOS

1- Arrastra donde corresponda al nombre del sólido geométrico.

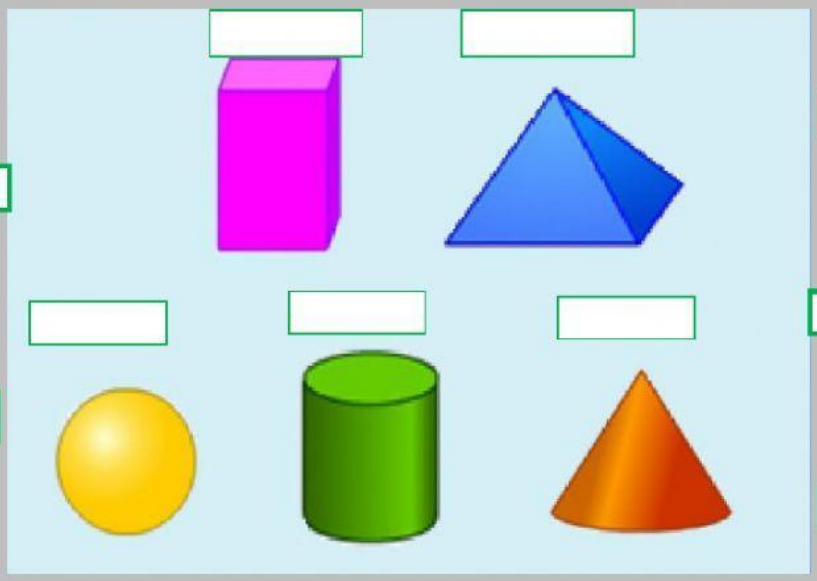

PIRÁMIDE

PRISMA

CONO

CILINDRO

ESFERA

2- Escriba los elementos de los sólidos geométricos.

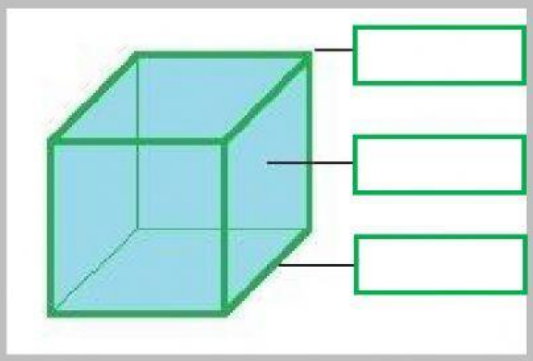

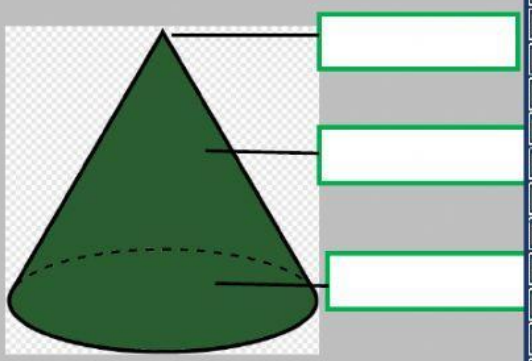

3- Seleccione falso o verdadero.

a- La superficie lateral del cilindro es curva.

b- Un cono tiene dos bases.

c- La esfera rueda en todas las direcciones.

d- Una esfera tiene dos bases.

e- Un cilindro tiene dos bases circulares.

4- Selecciona el tipo de cuerpo geométrico que tiene cada objeto.










5- Una el cuerpo geométrico con la figura plana que se utilizó para hacerlo.





