NÚMEROS DECIMALES

1. Al frente de cada número decimal escribe que clase de decimal es :

$0{,}333... = 0{,}\widehat{3}$ ⟶

$27{,}34777... = 27{,}34\widehat{7}$ ⟶

$15{,}3434... = 15{,}\widehat{34}$ ⟶

$0{,}1222... = 0{,}1\widehat{2}$ ⟶

2. Convierte las siguientes fracciones a números decimales

$\frac{2}{10} = \square$ $\frac{9}{10} = \square$ $\frac{1}{10} = \square$

$\frac{1}{10} = \square$ $\frac{2}{10} = \square$ $\frac{43}{10} = \square$

$\frac{16}{100} = \square$ $\frac{6}{10} = \square$ $\frac{41}{100} = \square$

3. Convierte las siguientes fracciones a números decimales

$\frac{5}{4} =$

$\frac{3}{8} \rightarrow$ _____

$\frac{8}{14} \rightarrow$ _____

4. Ubica el número decimal que representa cada letra

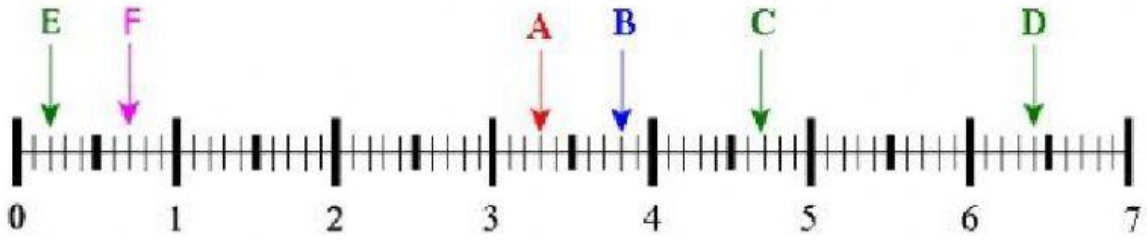

5. Calcula el resultado de las siguientes operaciones con números decimales

32,1	67,4	78,37	91,25
+ 46,4	+ 9,8	− 19,52	− 9,69

6. Resuelve las siguientes multiplicaciones con decimales



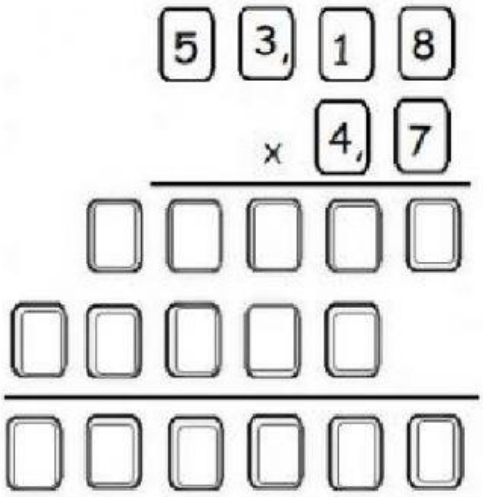

7. Ubica correctamente los números decimales y resuelve

Hemos comprado una camiseta por 9,85€ y unos pantalones por 24,50€. ¿Cuánto dinero ha costado de más, el pantalón que la camiseta? Haz la operación arrastrando los datos y el signo correspondiente.