GENIOS MATEMÁTICOS TRABAJANDO

1.- Relaciona los resultados con su operación

	3	7	8	0
+		8	9	5

	3	5	3	9
+	2	9	0	7

	3	6	3	2
+	1	8	9	9

6.446 | 4.675 | 5.5 3 1

2.- Lee los problemas planteados y escoge la respuesta correcta.

a.- La empresa de Gerardo compró 1159 balones de fútbol y 1074 de básquet.

¿Cuántos balones hay en total?

- 2.133
- 2.233
- 2.223

¿De cuánto es la diferencia entre los balones?

- 95
- 75
- 85

b.- Carmen tiene dulces: 1568 de chocolate y 456 menta; mientras que Ricardo tiene 699 de fresa y 395 de miel.

¿Cuántos dulces tiene Carmen?

- 2.024
- 2.124

¿Cuántos dulces tiene Ricardo?

- 1.084
- 1.094

¿De cuánto es la diferencia de dulces entre Carmen y Ricardo?

- 930
- 940

3.- Observa la clave y calcula

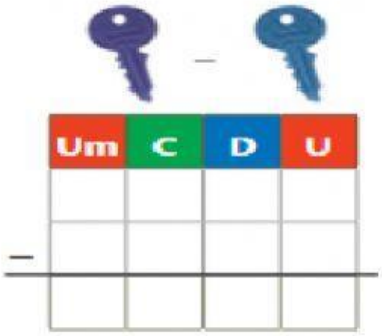

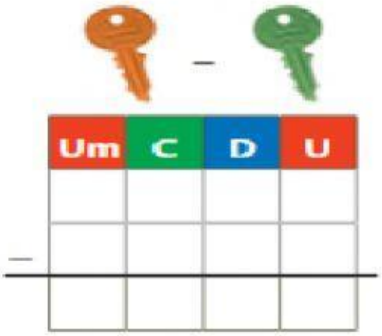

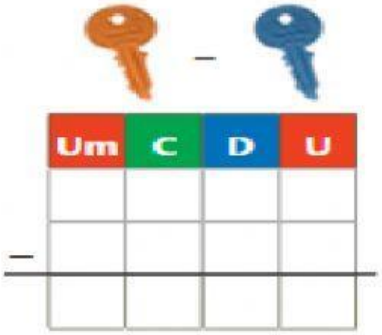

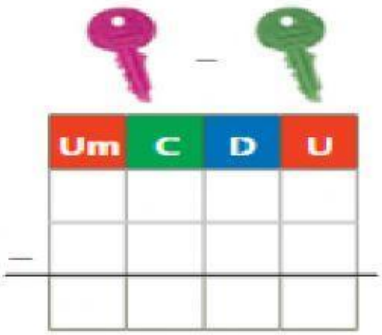

4.- Escribe los términos y resuelve cada sustracción.

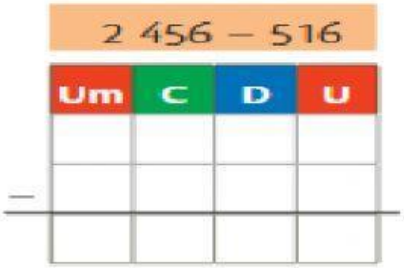

5.- Cálculo mental, resta decenas a números de tres y cuatro cifras.

856 – 30 = 826

- 543-20=
- 678-30=
- 468-50=
- 592-70=

- 648
- 522
- 523
- 418

7 184 – 50 = 7 134

- 7184-50=
- 8091-70=
- 9265-40
- 6397-80=

- 8021
- 7134
- 6317
- 9225