1) Ubicá los números en su lugar correcto

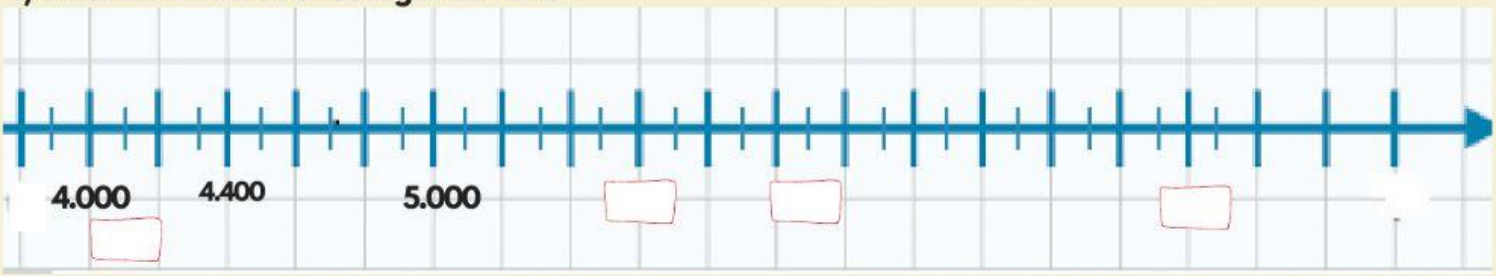

6.100 5.600 4.100 7.200

2) En esta recta se representan números del 0 al 10.000, de 1.000 en 1.000

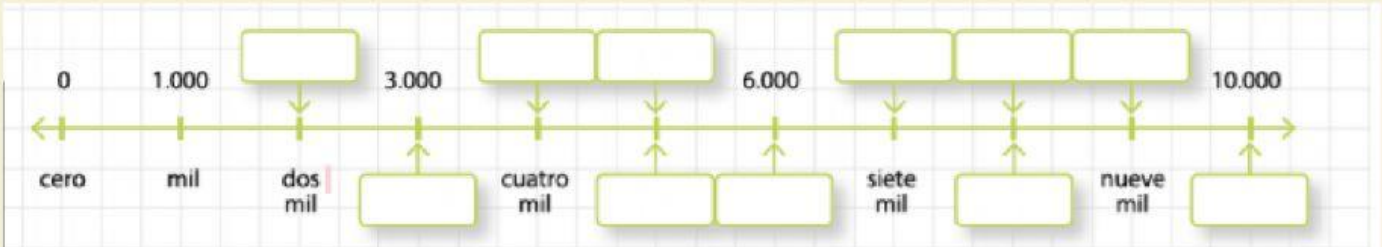

a) Completá los espacios vacíos.

b) Ubicá el lugar aproximado de los números 3.500, 3.001, 4.500 y 6.999.

3) ¿De cuánto en cuánto salta esta recta numérica?

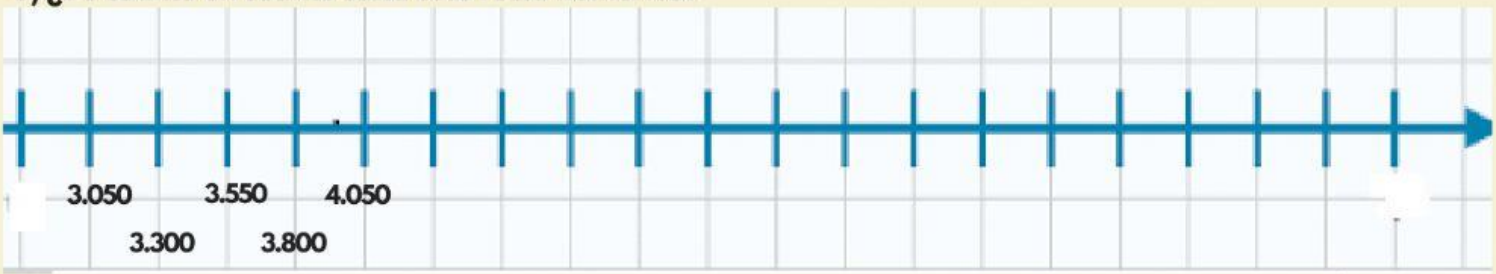

- Salta de ..... en .....

Recordá poner el punto en el MIL

4) Resolvé cada cuenta y escribí su resultado.
Luego, escribí el resultado en la recta numérica.

a) 1.110 + 4.050= ☐ b) 8.700 - 7.700= ☐

b) 9.500 - 3.100= ☐ b) 1.250 + 1.250= ☐