1. **Escriu les coordenades dels vèrtex d'aquest polígon:**

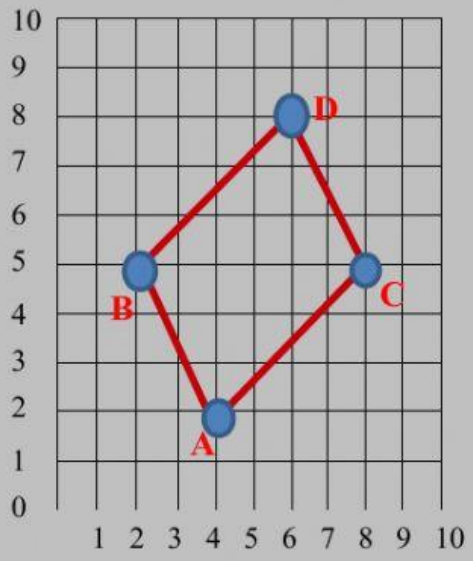

PUNT A= (,)

PUNT B= (,)

PUNT C= (,)

PUNT D= (,)

2. **Escriu les coordenades d'aquests punts:**

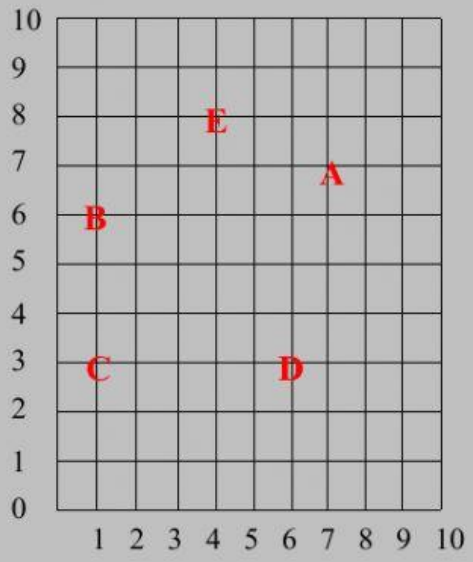

PUNT A= (,)

PUNT B= (,)

PUNT C= (,)

PUNT D= (,)

3. Clica els punts que corresponen a les coordenades següents:

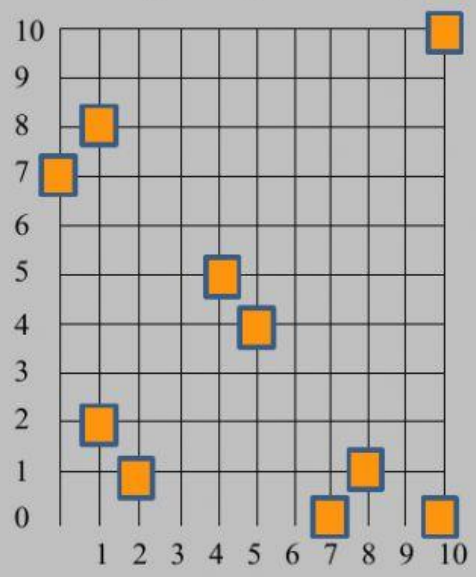

PUNT A= (1 , 2)

PUNT B= (4 , 5)

PUNT C= (10 , 10)

PUNT D= (0 , 7)

PUNT E= (8 , 1)