Tablas y gráficos

Observemos la información de la tabla y respondamos.

Días de lluvia por mes

	Lluvia Antofagasta	**Lluvia Santiago**	**Lluvia Valdivia**	**Lluvia Punta Arenas**
Marzo	0	0	6	7
Abril	0	2	8	6
Mayo	0	4	10	20
Junio	0	8	25	18
Julio	0	5	27	13

Total días de lluvia al mes

Marzo	
Abril	
Mayo	
Junio	
Julio	

Total días de lluvia en la ciudad

Antofagasta	
Santiago	
Valdivia	
Pta. Arenas	

Respondamos las preguntas:

¿En qué mes llovió más días?

¿En qué ciudad llovió más días?

¿En qué mes llovió menos días?

¿En qué ciudad llovió menos días?

Marca el gráfico correcto a los días de lluvia por ciudad

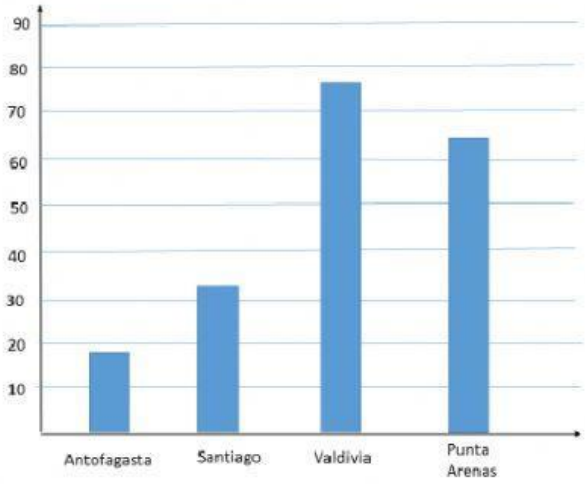

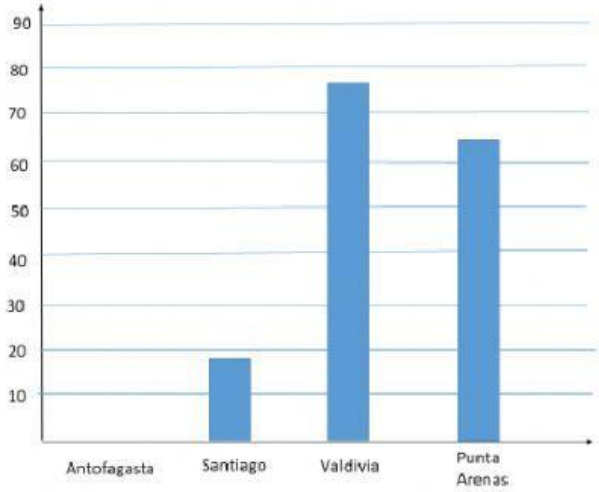

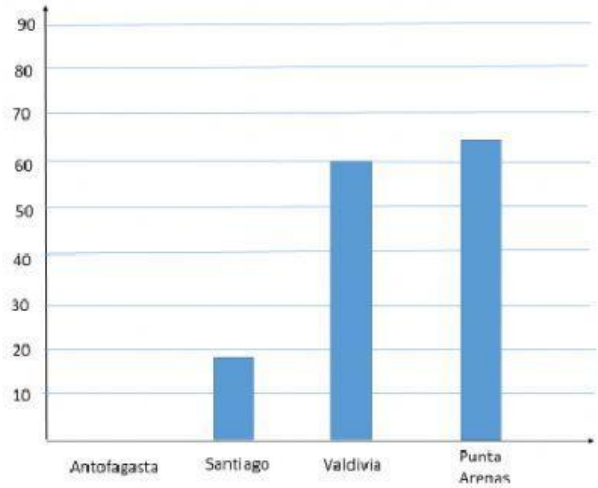

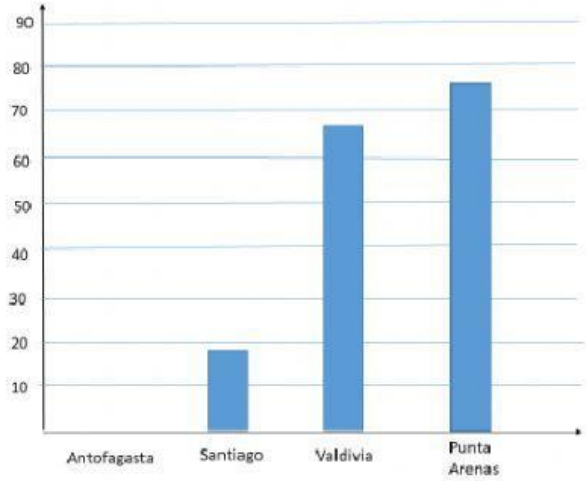

Según el gráfico marcado responde

¿En qué zona de Chile llueve menos?

¿En qué época del año (otoño- invierno) llueve más?