Escuela Pedro Pablo Lemaitre
Matemática 6to básico
Profesoras Teresa Ruz - Alejandra Uribe
Nathaly Panichine – Palmira Mansilla (PIE)

Fracciones Propias e Impropias
6° básico

Objetivo: Demostrar que comprende las fracciones y los números mixtos (OA5)

Estudiantes de 6° básico: Si tienes dudas o consultas escribe a: truzt@pplemaitre.cl

1.- Completa el siguiente cuadro

Fracción	Lectura	Numerador	Denominador	Clasificación
$\frac{1}{8}$				
___	Cinco medios			Impropia
___	Tres novenos		9	
___		5	10	
$\frac{27}{4}$				

EDUCANDO EN UN CLIMA DE SANA CONVIVENCIA

2.- Completa la fracción que representa la parte sombreada en cada caso y clasifícala en "propia o impropia"

Representación	Fracción	Propia o Impropia
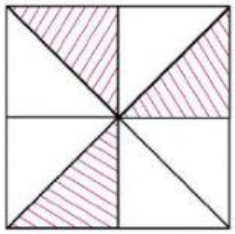	___	
	___	
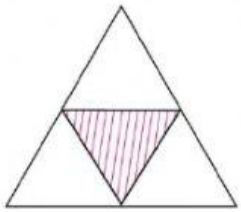	___	
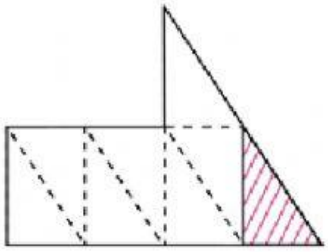	___	

3.- Une la Fracción Impropia que corresponde a cada Número Mixto.

$\frac{42}{5}$	$9\frac{1}{4}$
$\frac{23}{3}$	$7\frac{2}{3}$
$\frac{37}{4}$	$8\frac{1}{2}$
$\frac{23}{5}$	$8\frac{2}{5}$
$\frac{46}{8}$	$5\frac{6}{8}$
$\frac{17}{2}$	$5\frac{1}{9}$
$\frac{46}{9}$	$4\frac{3}{5}$