OPERAȚII CU NUMERE CUPRINSE ÎNTRE 0 ȘI 10- FIȘĂ DE LUCRU/EVALUARE

Ajută-l pe Rilă să afle rezultatele. La final dă-i cel mai lung morcov.

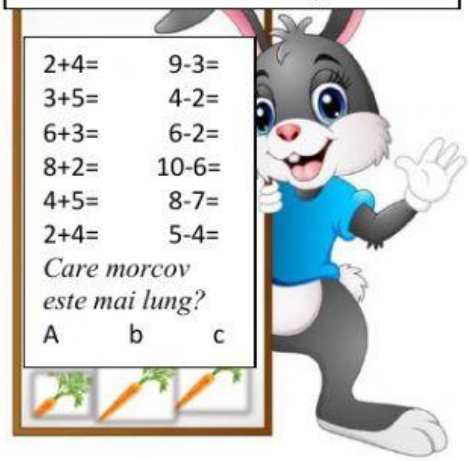

Calculează și unește cu săgeata rezultatul cu numărul scris pe balon.

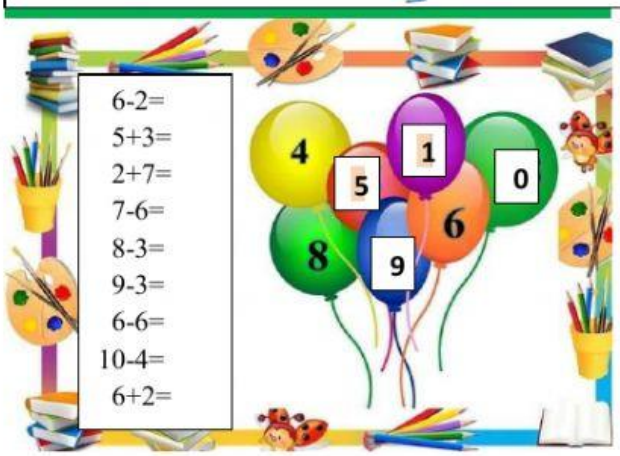

Scrie pe coada peștelui rezultatul. În acvariu vor intra doar numerele pare. Scrie-le în ordine crescătoare.

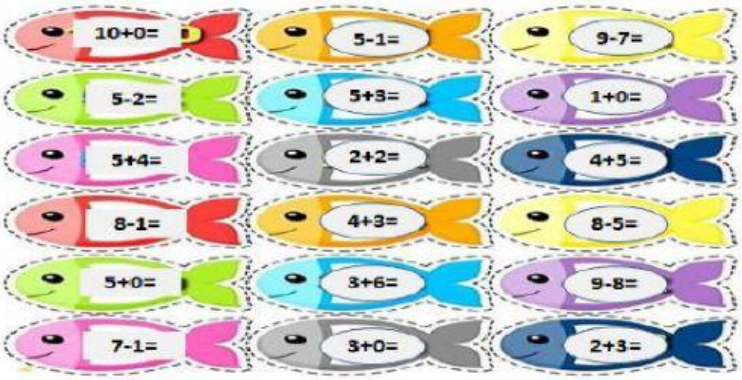

Câte flori au vizitat gărgărițele? Completează casetele după model:

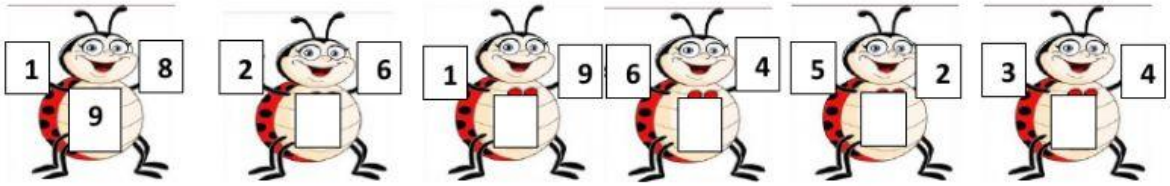

În garaj intră doar mașinile care corespund cifrei de pe ușă . Găsește rezultatele care se potrivesc, scrie exercițiile pe ușa garajului.

imagini prelucrate luate de pe internet.