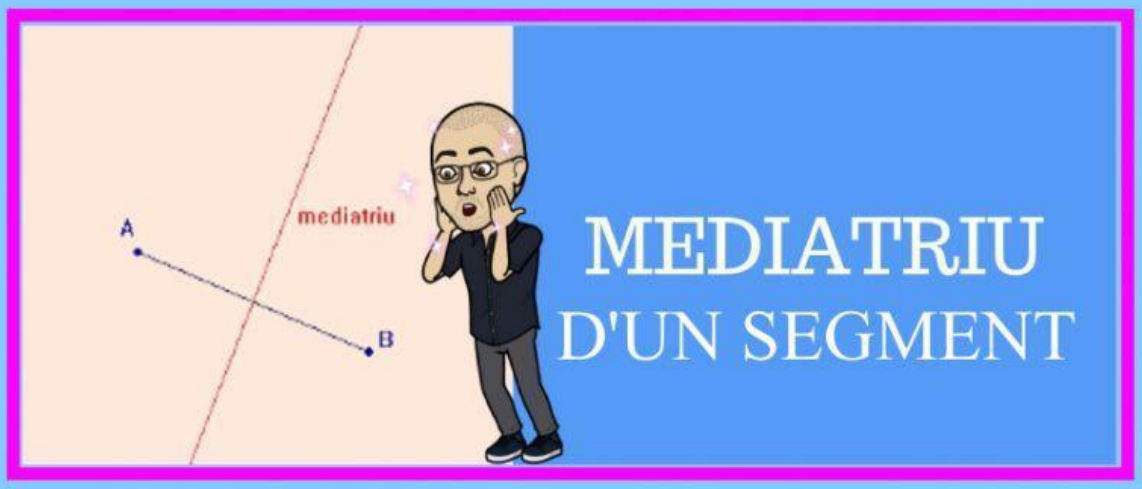

1. Aquí tens un vídeo on pots repassar com es fa la mediatriu d'un segment:

2. Marca quines d'aquestes imatges són mediatrius correctament realitzades:

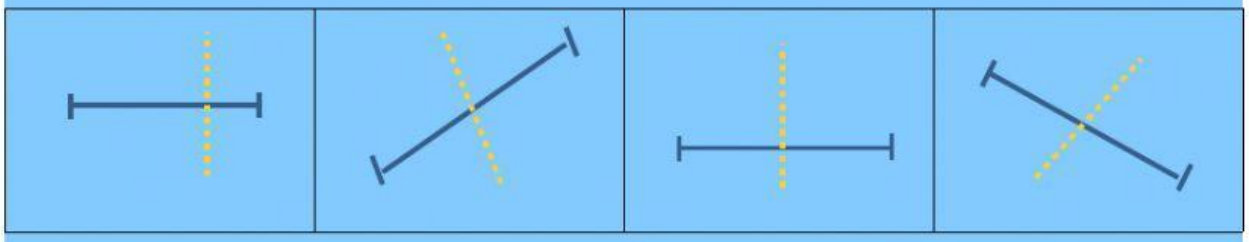

3. Un segment mesura 19 cm. Hem fet la mediatriu i des d'ella fins a un dels extrems hi ha 9'5 cm. L'hem feta bé? Eligeix la resposta correcta:

SÍ NO

4. Un segment mesura 16'2 cm. Hem fet la mediatriu i des d'ella fins a un dels extrems hi ha 8'2 cm. L'hem feta bé? Eligeix la resposta correcta:

SÍ NO

5. Aquí tens un triangle equilàter; açò vol dir que els tres costats són exactament iguals. Si feim la mediatriu de cada costat, quina característica es produeix? Clica la resposta vertadera:

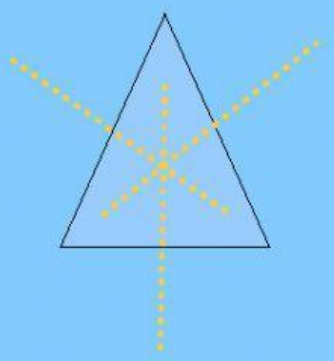

6. Dibuixa a la llibreta un segment de 9 cm i fes la mediatriu. Una vegada corregida pel mestre, clica si l'has feta bé:

SÍ NO

7. Dibuixa a la llibreta un segment de 5'5 cm i fes la mediatriu. Una vegada corregida pel mestre, clica si l'has feta bé:

SÍ NO

8. Dibuixa a la llibreta un segment de 10¡2 cm i fes la mediatriu. Una vegada corregida pel mestre, clica si l'has feta bé:

SÍ NO