Segundo examen parcial

1. Coloca los 5 sentidos que corresponde a cada órgano

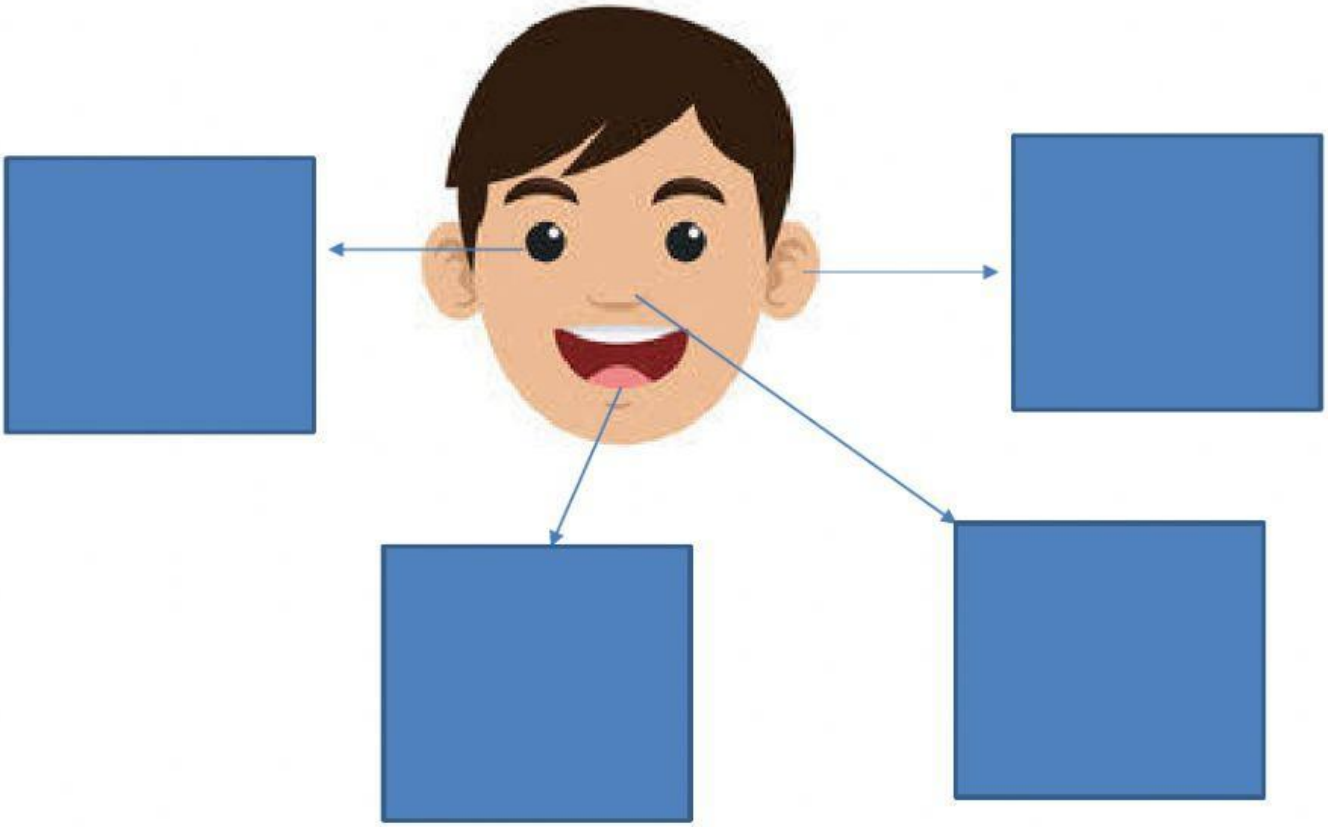



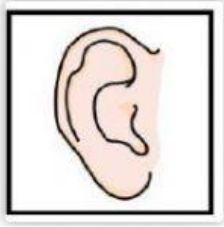

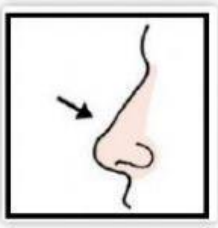

2. Responde .

a) ¿Qué ocurre si empujas una pelota?

b) ¿Qué sucede si aplicas fuerzas sobre un bombón?

c) ¿Qué pasa si jalas un objeto hacia ti?

3. Escribe LN si es luz natural o LA si es luz artificial

4. Completa los textos con las palabras de los recuadros.

suelo	Contaminación	llave	aire

Los		Contaminan el…	
La		Contaminan el…	
El		Se cuida cerrando la…	
La		Se separa para disminuir la…	

5. Selecciona que alimento es sano para tener una buena alimentación