Koordinatni sustav u ravnini- radni list

1) Istaknutim točkama u koordinatnoj ravnini pridruži odgovarajuće koordinate.

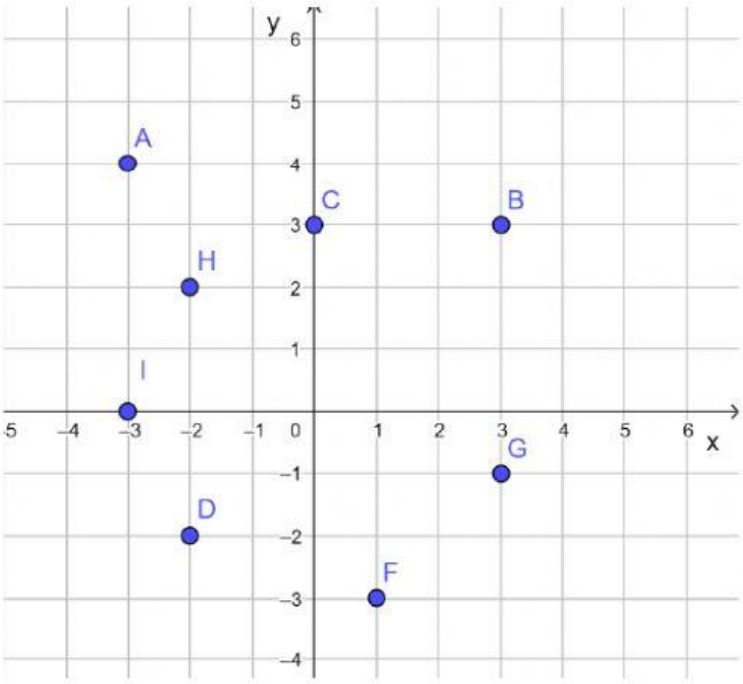

(-2,2)

(-3,0)

(1,-3)

(3,-1)

(-2,-2)

(0,3)

(3, 3)

(-3,4)

2) Točke zadane koordinatama povlačenjem postavi u odgovarajući kvadrant

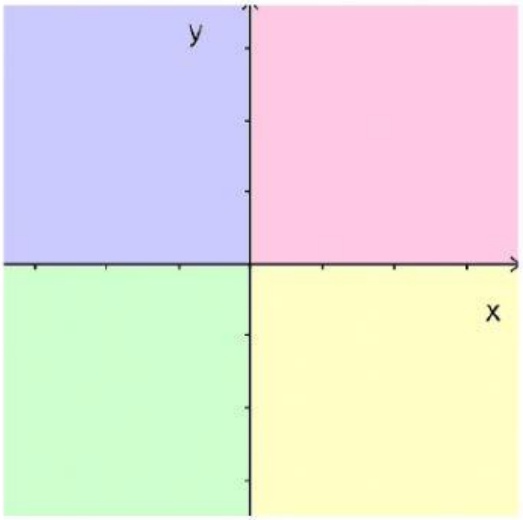

A(-1,-5)

B(-5,3)

C(4,9)

D(4,-7)

3) Označi sve točke koje pripadaju II. kvadrantu

A(-1,-6) B(-2,4) C(1,-9) D(4,5) F(-8,3) G(-5,5) H(-1,-7)

Ovo djelo je licencirano pod licencom Creative Commons Imenovanje-Nekomercijalno-Dijeli pod istim uvjetima 4.0 međunarodna. Ako želite vidjeti primjer te licence, posjetite http://creativecommons.org/licenses/by-nc-sa/4.0/.
autor: Valentina Pajdaković

4) Spoji zadane točke s odgovarajućom pozicijom u koordinatnom sustavu

A(-2,1)	u I. kvadrantu
B(4,-3)	na osi x
C(5,6)	u II. kvadrantu
D(-5,-8)	u III. kvadrantu
F(4,0)	na osi y
G(0,-1)	u IV. kvadrantu

5) Odčitaj koordinate istaknutih točaka u koordinatnoj ravnini.

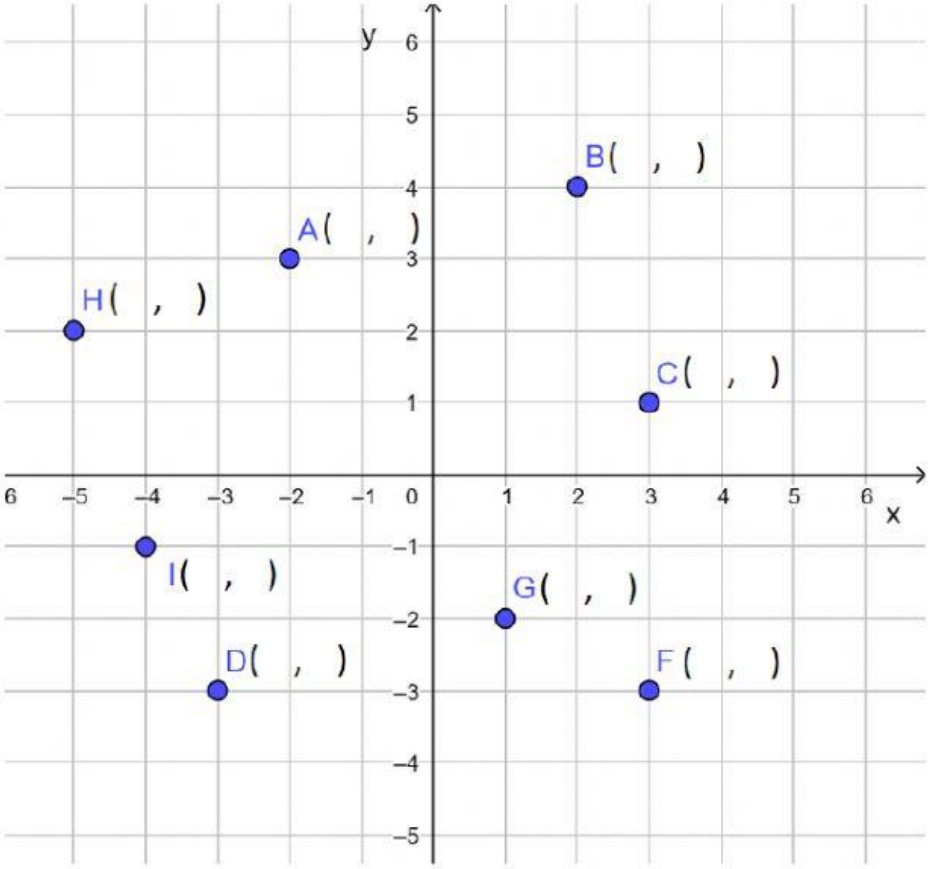

Ovo djelo je licencirano pod licencom Creative Commons Imenovanje-Nekomercijalno-Dijeli pod istim uvjetima 4.0 međunarodna. Ako želite vidjeti primjer te licence, posjetite http://creativecommons.org/licenses/by-nc-sa/4.0/.
autor: Valentina Pajdaković