PENSAMIENTO NUMÉRICO

Escribe los números



____ son ____ decenas y ____ unidades.

____ son ____ decenas y ____ unidades.



____ son ____ decena y ____ unidades.

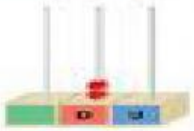

____ son ____ decenas y ____ unidades.

Une según corresponda

dieciséis	20	2 D y 5 U
veinticinco	16	2 D y 1 U
veinte	25	2 D y 0 U
dieciocho	21	1 D y 6 U
veintisiete	18	2 D y 9 U
veintiuno	27	1 D y 8 U
veintinueve	29	2 D y 7 U

PROFESORA: ELIZABETH GARZON GALENO