UNIDAD EDUCATIVA BILINGÜE COMPUTER WORLD

Docente: **Yadira Bucheli**	Materia: **Matemática**	Bloque: 1
Curso: **Octavo de Básica**	**Tema:** Números Relativos	Destreza: Interpretar las formas de expresión de los números relativos.
Fecha: **15 – 07-2020**		

1. **Observe el siguiente gráfico y escriba los números relativos que expresan la posición del pescador.**

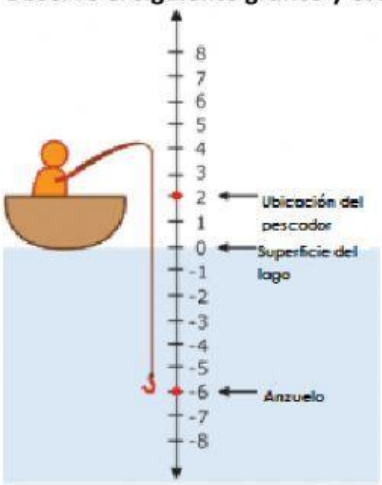

Ubicación del pescador:

Superficie del lago:

Anzuelo

2. **Elija la respuesta correcta que muestra cada termómetro en grados °C y °F expresándolos en números relativos.**



°C	°F
33	0
80	30
0	83
-10	-15

°C	°F
30	0
-5	10
0	8
-10	-15

3. **Una con una línea las siguientes expresiones con sus números relativos correspondientes.**

Voy al subsuelo 3 en el ascensor	-20
Estamos 100 m sobre el nivel del mar	20
El submarino esta 20 m bajo el nivel del mar	100
	-100
	3
	-3

4. **Ordene de forma creciente los siguientes números**

-1 1 3 31 5 -7 -3 0 -4

5. **Elije el número en la recta numérica según las preguntas.**
   a. **El número entre 0 y -1**

   b. **El número entre 1 y 2**

   c. **El número después de 2**

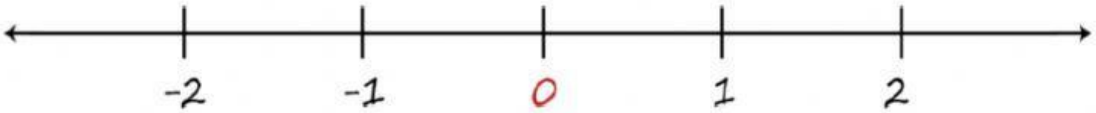

0,5 2,5 1,5 -0,5 -2,5