Perímetro

Nombre: _____

Grado: _____ **Fecha:** _____

1. Retiñe el contorno de cada figura con color rojo. Luego, mide y escribe su perímetro con base en las medidas que aparecen en cada lado.

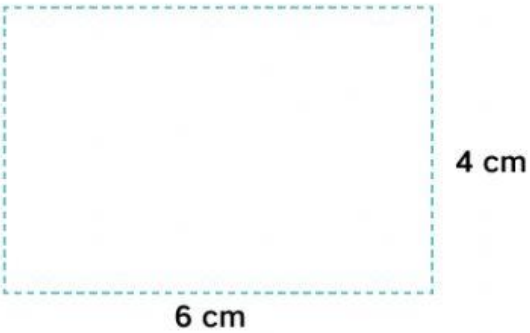

Perímetro: = _____

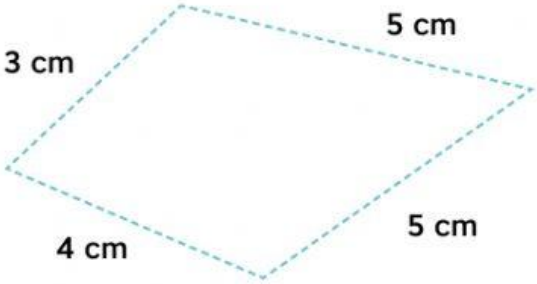

Perímetro: = _____

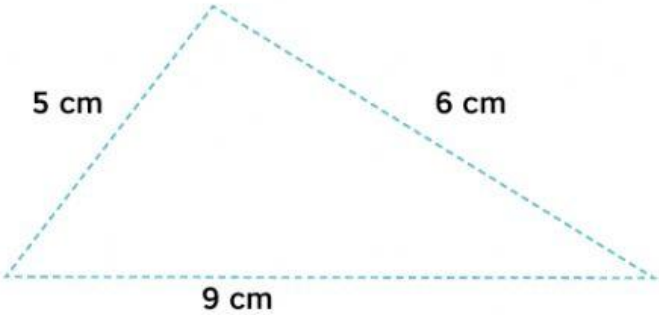

Perímetro: = _____

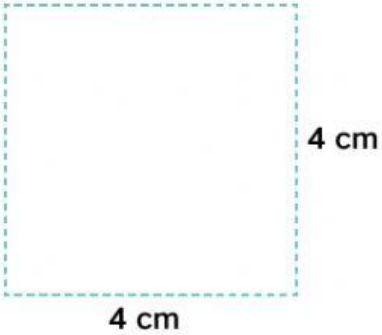

Perímetro: = _____

2. Sofía quiere cambiar el marco de su cuadro. ¿Cuántos centímetros de madera necesita?