1.SINIF – MATEMATİK DEĞERLENDİRME TESTİ - 2

İsim:_____ Soy isim:_____

1.)

13 havucum vardı. 7 tanesini yedim. Kaç tane havucum kaldı?

A. 7 B. 6 C.8

2.) 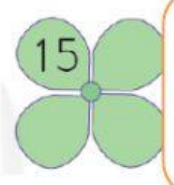

Aşağıdaki sayılardan hangisini yazarsak, yaprağın içindeki sayıdan büyük olur?

A.13 B. 14 C.16

3.)

Aşağıdaki işlemlerin hangisinin sonucu 14 ya-

A. $\begin{array}{r} 6 \\ +\ 8 \\ \hline \square\square \end{array}$ B. $\begin{array}{r} 8 \\ +\ 5 \\ \hline \square\square \end{array}$ C. $\begin{array}{r} 9 \\ +\ 7 \\ \hline \square\square \end{array}$

4.)

Yukarıdaki geometrik cismin adı, aşağıdakilerden hangisidir?

A. küp B. küre C. koni

5.)

Satıcı, 5 balonu satarsa geriye kaç balon kalır?

A. 4 B.3 C.2

6.)

Yukarıdaki yarımlar kaç bütün eder?

A. 2 B. 3 C.4

7.)

"Köpek, koltuğun....."

Yukarıdaki resme göre, boş yere aşağıdakilerden hangisi gelmelidir?

A. üstündedir. B. yanındadır. C. altındadır.

8.) $\boxed{8} + \boxed{6} = ?$

Yukarıdaki işlemin sonucu kaçtır?

A. 15 B. 14 C. 13

9.

Ben Ten'in 15 düşmanı var. 8 düşmanını yenerse kaç düşmanı kalır?

A. 8 B. 7 C.6

10.)

Sabah 8 şeker yedim. Akşam 7 şeker yedim. Toplam kaç şeker yedim?

A. 15 B.16 C.14

11.)" 14 şeker, 10 şekerden....."

Yukarıdaki tümcede boş bırakılan yere aşağıdakilerden hangisi gelmelidir?

A. azdır B. fazladır C. eksiktir

12.)

15	12	16
− 6	− 5	− 7

Yukarıdaki işlemlerin kaç tanesinin sonucu "9" yapar?

A.1 B.2 C.3

13.)

Aşağıdakilerden hangisi koniye bir örnektir?

A. B. C.

14.)

Resimdeki varlıkların hangisi en uzaktadır?

A. arı B. kelebek C. çiçek

15.)

Yandaki resimde masanın altında olan aşağıdakilerden hangisidir?

A. çanta B. kedi C. sandalye

16

Aşağıdaki işlemlerden hangisinin sonucu diğerlerinden farklıdır?

15	14	16
A. − 6	B. − 5	C. − 8

17.) 9 + ... = 15

Yukarıda boş bırakılan yere aşağıdakilerden hangisi gelmelidir?

A. 6 B. 7 C. 8

1 .SINIF – MATEMATİK DEĞERLENDİRMESİ – 2

1.) 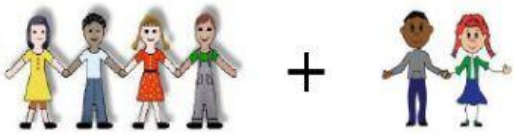

Yukarıdaki toplama işleminin sonu kaç yapar?

A. 6 B. 5 C. 7

2.)

Kedinin elinde kaç çiçek daha olursa 1 0 çiçek olmuş olur?

A. 4 B. 3 C. 6

3.) 

Yandaki penguenlere 3 penguen daha katılsa kaç penguen olur?

A. 1 0 B. 9 C. 8

4.)

Yukarıda, en kısa boylu çocuk, kaçıncı sıradadır?

A. 1 . B. 3. C. 5.

5.) 9 + 7 = ?

Yukarıdaki işlemin sonucu kaç yapar?

A. 1 6 B. 1 7 C. 1 5

6.) 65

Yukarıda sayıda kaç **onluk** vardır?

A. 5 B. 65 C. 6

7.)

Yukarıdaki geometrik cismin adı nedir?

A. küre B. küp C. prizma

8.)

Aşağıdakilerden hangisi bir silindir çocuklar?

A. B. C.

9.) 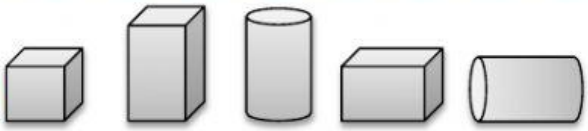

Yukarıda 4. Sıradaki geometrik cismin adı nedir?

A. küre B. küp C. prizma

1 0.)

$$\begin{array}{r} 8 \\ +\ 6 \\ \hline ? \end{array}$$

Yandaki işlemin sonucu kaç yapar?

A. 1 4 B. 1 3 C. 1 5