Изображение десятичных дробей на координатном луче

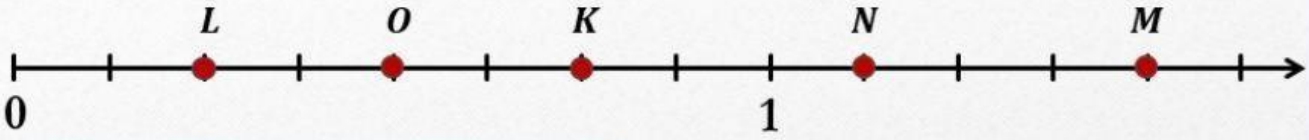

Единичный отрезок равен клеточек

$R(0,7)$ $S(2,01)$

$S(0,128)$

$T(0,12)$ $T(0,57)$

Расположите точки в порядке убывания их координат:

Верно ли, что точка $W(1,5)$ расположена правее точки $Q(1,55)$?

Между какими соседними натуральными числами расположено число:

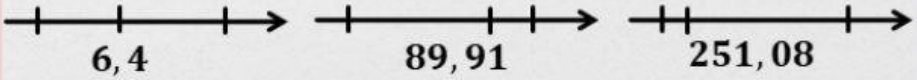

Какое натуральное число заключено между дробями:

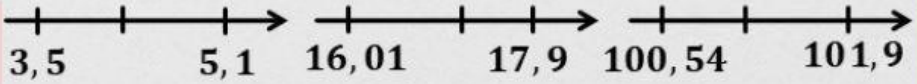

LIVEWORKSHEETS