Nueva Escuela del Sur

ÉXITOS SEÑO FABY

Líneas y ángulos

1- ESCRIBE EL NOMBRE CORRECTO EN CADA IMAGEN.

2- UNE CON FLECHAS CADA ÁNGULO CON SU NOMBRE.

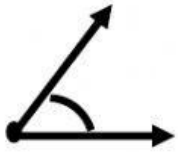

CÓNCAVO

OBTUSO

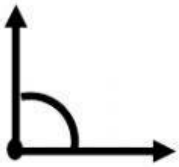

UN GIRO



AGUDO

RECTO

3- COMPLETA LAS ORACIONES CON LAS PALABRAS SEGÚN CORRESPONDA.

PUNTO DE ORIGEN | INFINITAS | SEGMENTO | PARALELAS | PUNTOS | PERPENDICULARES

LAS LÍNEAS ESTÁN FORMADAS POR _____ SUCESIVOS, NO PODEMOS REPRESENTAR SU EXTENSIÓN YA QUE SON _____ CUANDO UNA LÍNEA SE CORTA EN UN _____ FORMA DOS SEMIRRECTAS OPUESTAS. SI ENCONTRAMOS UNA LÍNEA QUE COMIENZA Y TERMINA CON UN PUNTO TENEMOS UN _____ CUANDO DOS LINEAS SE CRUZAN EN UN PUNTO MEDIO FORMANDO CUATRO ÁNGULOS RECTOS RECIBEN EL NOMBRE DE _____ Y CUANDO JAMÁS SE CRUZAN EN TODA SU EXTENSIÓN SON _____