LION HILL SCHOOL
TALLER EVALUATIVO
DE FINALIZACIÓN DE PERIODO
"Excellence Life Project"

AREA:	MATEMATICAS									
NOMBRE:										
GRADO:	TRA	1º	2º	3º	4º	5º	6º	7º	8º	9º
FECHA:										
DOCENTE EVALUADOR(A):	SANDRA PATRICIA MENDEZ HUERGO									

VALORACIÓN

1. ¿Cómo se escribe en números? Escríbelo en el recuadro.

a) Una decena y nueve unidades. ☐

b) Dos decenas y cinco unidades. ☐

c) Tres decenas y tres unidades ☐

d) Cinco decenas y siete unidades ☐

2. Escribe el numero en cada ábaco

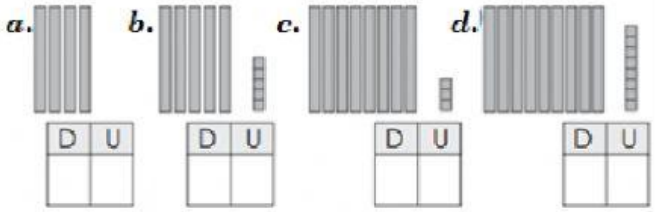

3. Escribe la cantidad


☐ decenas y ☐ unidades son ☐

☐ decenas y ☐ unidades son ☐


☐ decenas y ☐ unidades son ☐

4. Escribe las decenas y unidades

a) 74 → ☐ decenas y ☐ unidades

b) 92 → ☐ decenas y ☐ unidades

c) 66 → ☐ decenas y ☐ unidades

5. Elige el mayor valor de cada pareja

16	28
19	31
13	26
16	32
40	50

6. Escribe los números que faltan

10	11		13	14			17
67		69	70		72		74
80		82		84		86	
48		50		52		54	
	37		39		41		43
89		91		93		95	