MESURA DE LA SUPERFÍCIE

RECORDA:

Per saber la superfície d'una figura, has de comptar
el nombre de quadrats que necessites per cobrir tota la figura.
A vegades has de comptar mitjos quadrats.

1. **Quina superfície tenen aquestes figures? Si necessites posar la coma, utilitza l'apòstrof ('):**

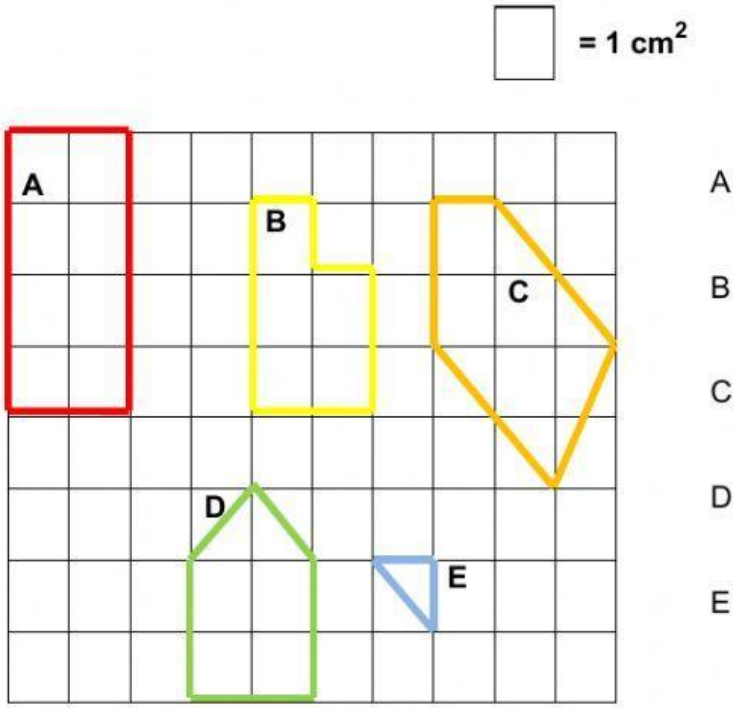

RECORDA:

1 m² és un quadrat que mesura 1 m a cada costat. Però a la llibreta no podríem fer uns quadrats tan grossos, per la qual cosa feim quadrats petits i indicam la mesura al costat:

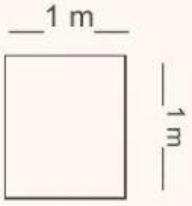

2. Quina superfície tenen aquestes figures? Si necessites posar la coma, utilitza l'apòstrof ('):

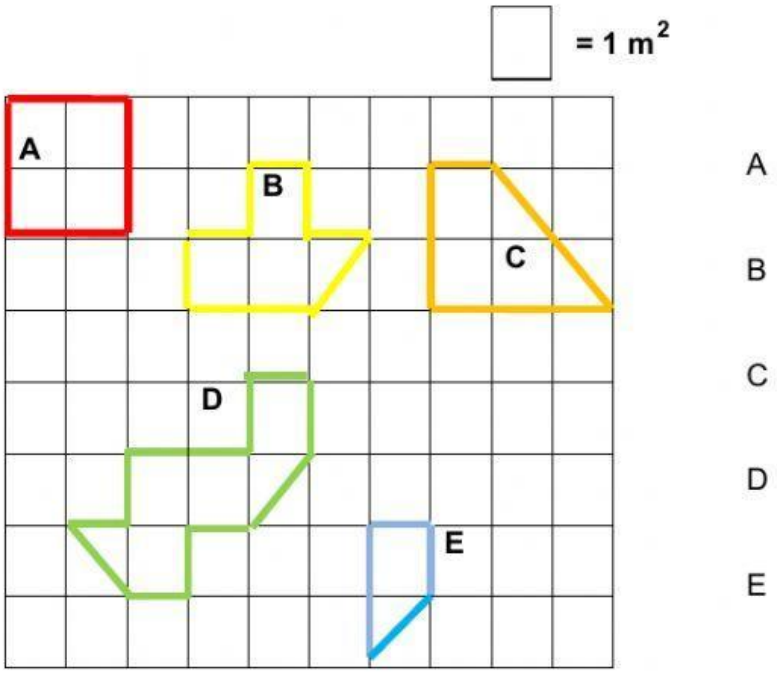

A

B

C

D

E

3. Relaciona la unitat que empraries per mesurar aquestes superfícies:

SUPERFÍCIE D'UN FOLI	m^2
SUPERFÍCIE DEL CAMP DE FUTBOL DEL BARÇA	cm^2
SUPERFÍCIE D'UN SEGELL	km^2
SUPERFÍCIE DE MENORCA	mm^2