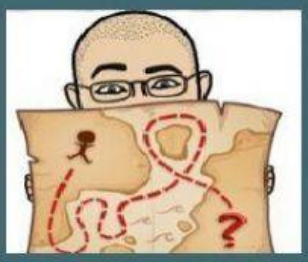

Interpretar mapes
L'ESCALA

1. **Observa aquests mapes:**

A) Mapa d'Andorra:

- Aquest mapa té una escala 1 : 100.000
- Açò significa que al mapa representa a la realitat; és a dir, que cada cm del mapa equival a km.

B) Mapa d'Europa:

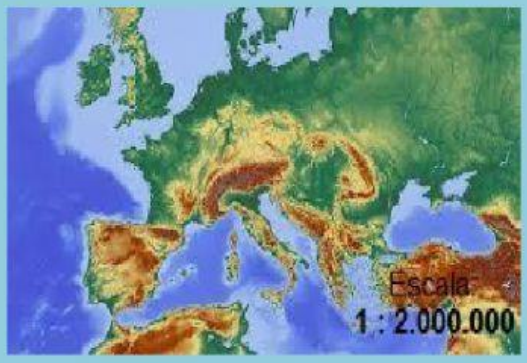

- Aquest mapa té una escala 1 : 2.000.000
- Açò significa que al mapa representa a la realitat; és a dir, que cada cm del mapa equival a km.

C) Mapa de Toledo:

- Aquest mapa té una escala 1 : 2.000.000
- Açò significa que al mapa representa a la realitat.

2. Observa bé aquest mapa de Rússia:

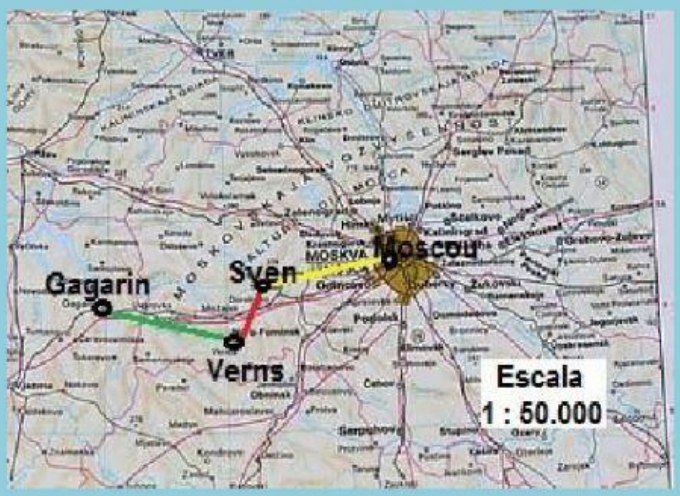

- De Gagarin a Verns el mapa mesura 5 cm. Açò significa que hi ha un total de cm a la realitat. Si ho passam a m seran: m.
- De Verns a Sven el mapa mesura 2 cm. Açò significa que hi ha un total de cm a la realitat. Si ho passam a m seran m.

  D' Sven a Moscou el mapa mesura 4'5 cm. Açò significa que hi ha un total de cm a la realitat. Si ho passam a m seran m.

3. Observa aquest mapa de Menorca:

A) De Maó a Alaior hi ha **10 cm** al mapa. Açò significa que a la realitat

hi ha cm, que equival a km.

B) D'Alaior a Mercadal hi ha **9 cm** al mapa. Açò significa que a la realitat

hi ha cm, que equival a km.

C) De Mercadal a Ferreries hi ha **8 cm i mig** al mapa. Açò significa que a la realitat

hi ha cm, que equival a km.

D) De Ferreries a Ciutadella **17'5 cm** al mapa. Açò significa que a la realitat

hi ha cm, que equival a km.

Aquí tens l'escala si et fa falta:

km – hm – dam – m – dm – cm - mm